いまからでも間に合う

幼児低学年の導入

2023.6.

株式会社エジソンクラブ

本日の内容

1．概要
2．なぜお勧めするか
3．教材の特徴
4．教材の内容
5．運用
6．教材の発注

１．概要

エジソンクラブの学習とは

- 個別最適
  その子に合ったレベルの教材をスモールステップでレベルアップしていく学習

- 自学自習
  基本的に自力で学習を進める方式
  理解を深めるための繰り返し学習
  計算と文章題によるレベルチェック

２．なぜお勧めするのか

環境・阻害事情・強み

教育への関心が高い保護者に応えるため

低学年時の学習に対する不満と不安

- 学校の学習と宿題では学力はつかない
- 中学受験を意識した適切な低学年指導がない
- 親が面倒見たくとも、時間の余裕がない
- 遊びだけの学童には、物足りなさを感じる
- 教育漬けの民間学童は高額で負担しきれない

しっかりした基礎と

将来の進学に備えた学力を身につけさせたい

導入に踏み切れない教室側の事情

- 幼児、低学年はコストが合わない？
- 指導体制を作るのがむずかしい？
- 受け入れ態勢を作れるのか不安だ
- 何を導入したらいいのかわからない

↓ いつのまにか

他業種からの参入が続々

（新しいプログラム、異業種からの参入）

学習塾がとりくむべき理由（強み）

他業種からの参入とくらべ大きな優位性

- 初期投資が不要
- すでに地域実績と一定の評価
- 地域での進学情報などの情報力
- 上位学年への接続効果
- 行政の対応柔軟化
- 基礎学力の形成が上位学年の指導に生きる

お勧めする導入パターン

ポイントは小さく始める（準備しっかり負担少なめ）

・週１～３回の、放課後スクールタイプ

学習メニューは、

宿題

エジソンクラブ（上位学年に続く）

習い事（オンライン型）

夏のメニュー例

宿題、エジソンクラブ、読書、オンライン型など

３．学習の内容について

エジソンクラブの学習は
認知能力の向上を目指しています

認知能力（従来型の学力）向上に必要なことは

・本質の理解、記憶、反復⇒一時習得

・反復継続による学力化　⇒長期習得です

そのために必要な学習ステップは

- 概念をやさしくかみくだいて理解
- 定着するための繰り返し学習（短期・中期・長期）
- 長期定着をチェックする学習

を効果的に進めることが大切

いかに手間をかけず効果をあげるか

指導パターンと月謝・学習効果

	通常集団	ＩＣＴ	マンツーマン	大手FC	集団自立
月謝設定	低	中	高	低	中
学習効果	上位３割の効果高い	個人差大	高	上位３割の効果高い	高

ここがねらい目
展開の自由度が高い

4．教材

「個別最適」＋「自学自習」の学習

- 個別最適

  その子に合ったレベルの教材を
  スモールステップでレベルアップしていく学習

- 自学自習

  基本的に自力で学習を進める方式
  理解を含めるための繰り返し学習
  計算と文章題によるレベルチェック

４-１.どんな教材を使うのか

メイン教材

・幼児～４年生程度

　　９８段階スモールステップ教材（総合教材）

　　１８段階算数文章題

　　１５段階計算学習

　　かき方・漢字練習

・図形学習

　　数理パズル、数理つみき

４-２.メイン教材の構成

○れんしゅうちょう（算数基礎総合教材）
　年中～小学校４年生まで９８分冊（進級式教材）
　同一冊子を２～３冊繰り返して学習
○計算練習帳
　年長～小学校４年生まで１５分冊
○文章題
　年長～小学校５年生まで１８分冊
○かきかた、漢字
○図形（積み木２種、パズル）

４-２-１　９８段階練習帳シリーズ

- 年中用　１～１２（１２段階）
- 年長用　１～１２（１２段階）
- １年生　１～１４（１４段階）
- ２年生　１～１８（１８段階）
- ３年生　１～２０（２０段階）
- ４年生　１～２２（２２段階）

合計　　９８段階

年中用：ようじれんしゅうちょう（１～１２）

ぬりえ

てほんを みて おなじ
いろを ぬりましょう。





ひらがな

1かいごとに しるし(＼)
をつけ、3かい なぞる。

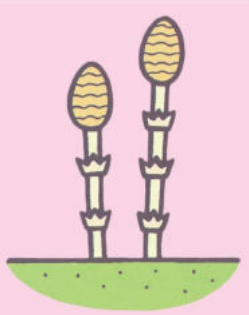

1かい なぞる。

つ

つ

つ

く

く

く

し

し

し

シールとはさみ

はさみで ていねいに
きりとって はりましょう。
かみくずは ごみいれへ。

ひこうき



かずとすうじ

------ を なぞり、いろを
ぬりましょう。



1かいごとに しるし(＼)
をつけ、5かい なぞる。



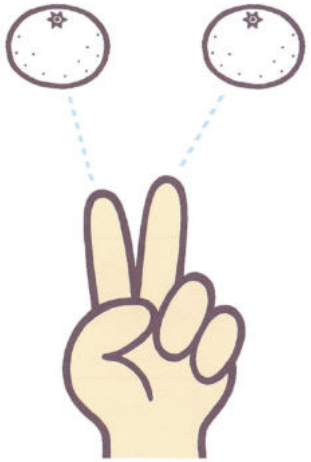

年長用：れんしゅうちょう入門（1～１２）

基礎学習 れんしゅうちょう

入門－1

さつめ　級　ねんせい　なまえ

評価

1：たいへんよくできました。　3：ちょっとらんぼうでした。
2：きれいにできました。　4：まちがいがおおかった。

		入－1	入－2

○の数	× △	みなおし	残	採点者

日本基礎学習協会　指定教材

2014. 11
2014. 11

ソフト(そふと)したじきを したに しいて、
3Bの えんぴつで、ていねいに なぞりましょう。
●から はじめます。

く り

し か

つ き

なぞり

せんを なぞりましょう。



すうじ

もじと すうじを なぞり、えを ぬりましょう。

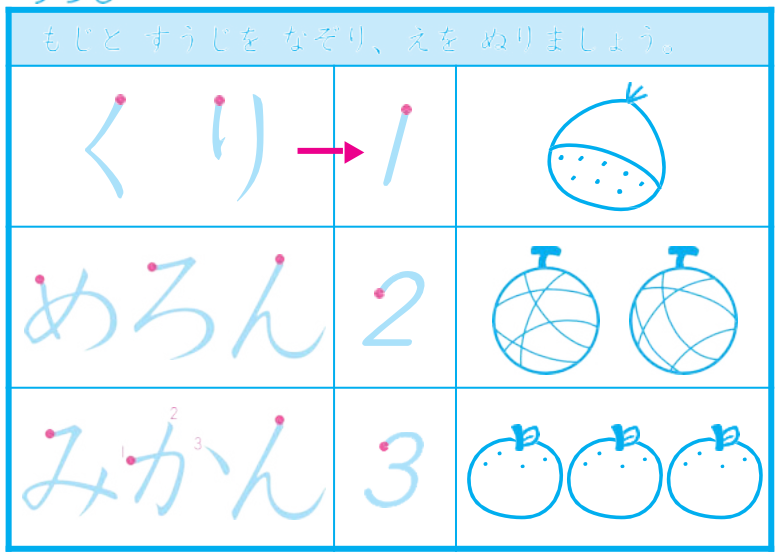

いくつ

もじを なぞり、てんと てんを むすびましょう。

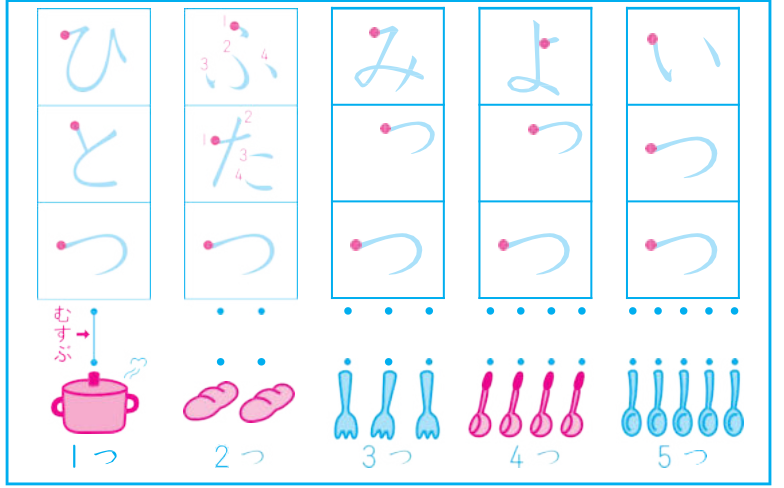

はりえ

シール（しいる）を きりとって はりましょう。

１年生：練習帳Ａシリーズ（1～１４）

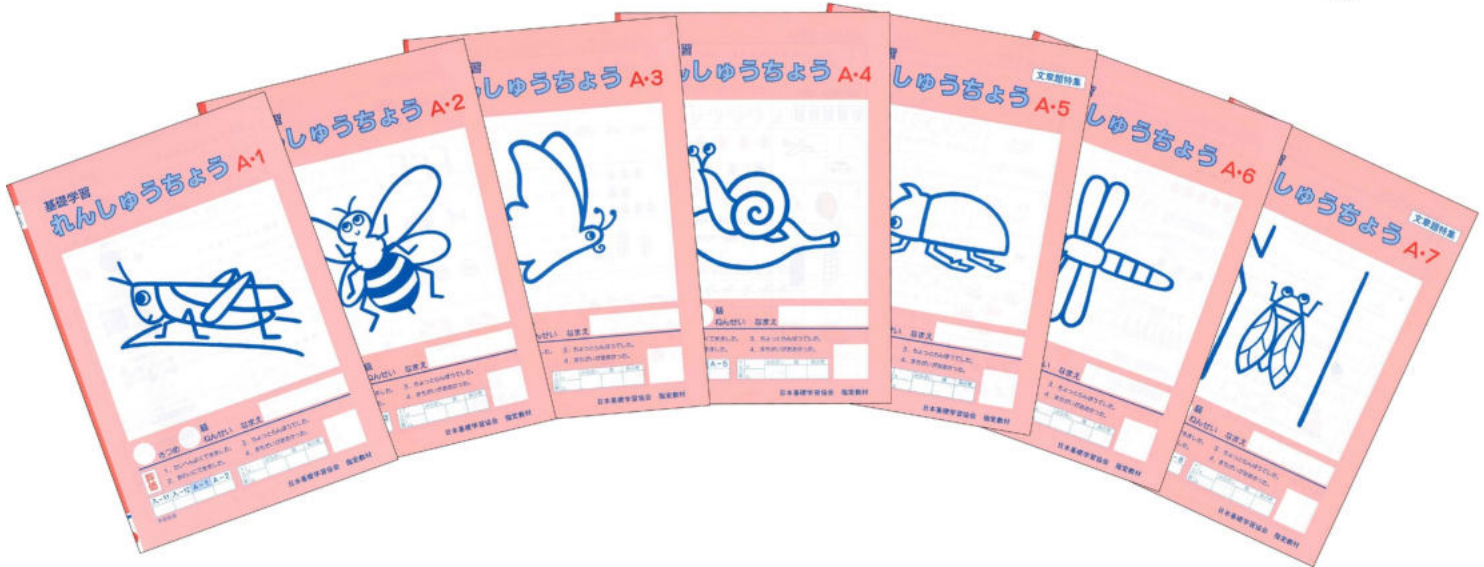

かぞえる

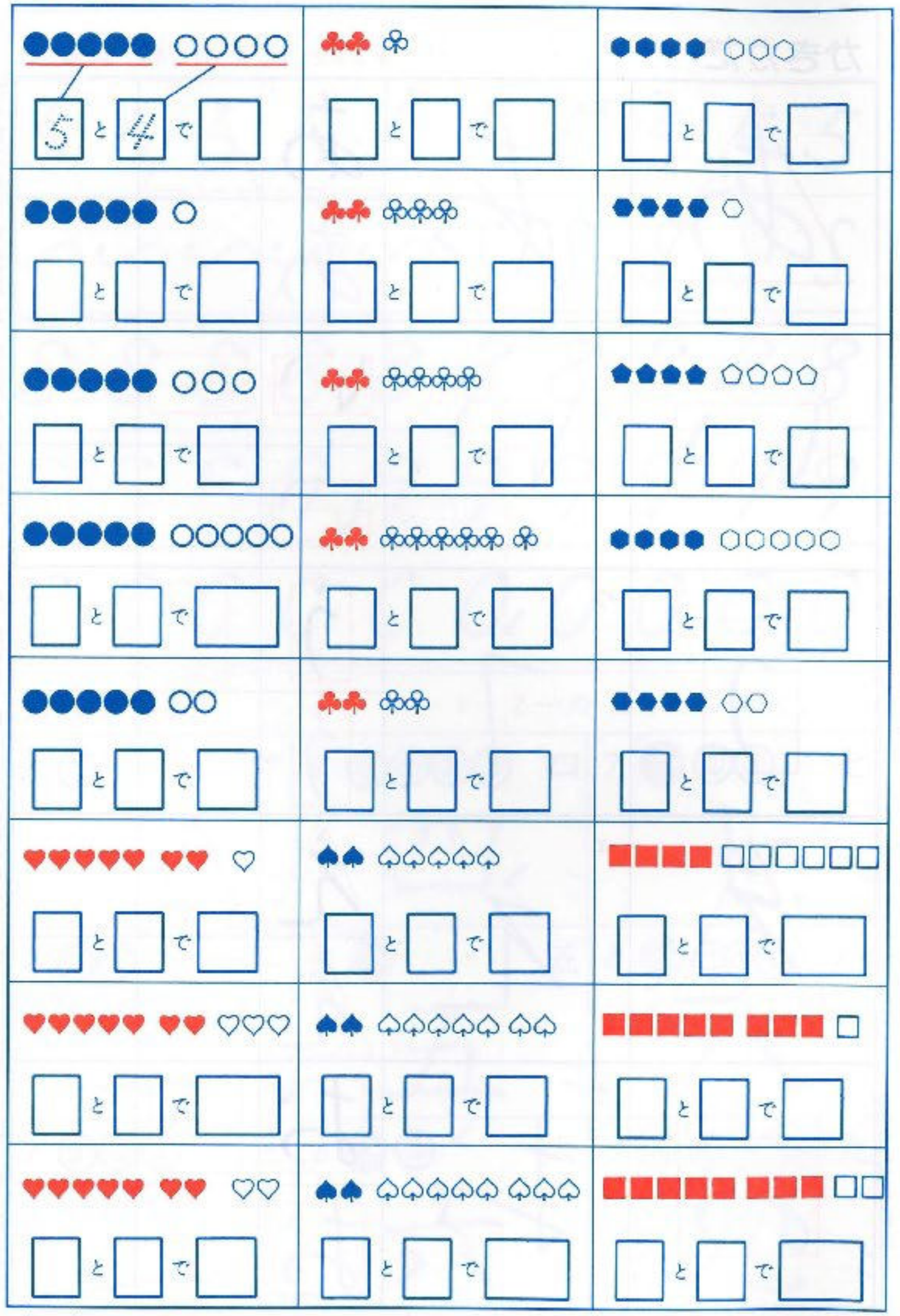

5のかたまり

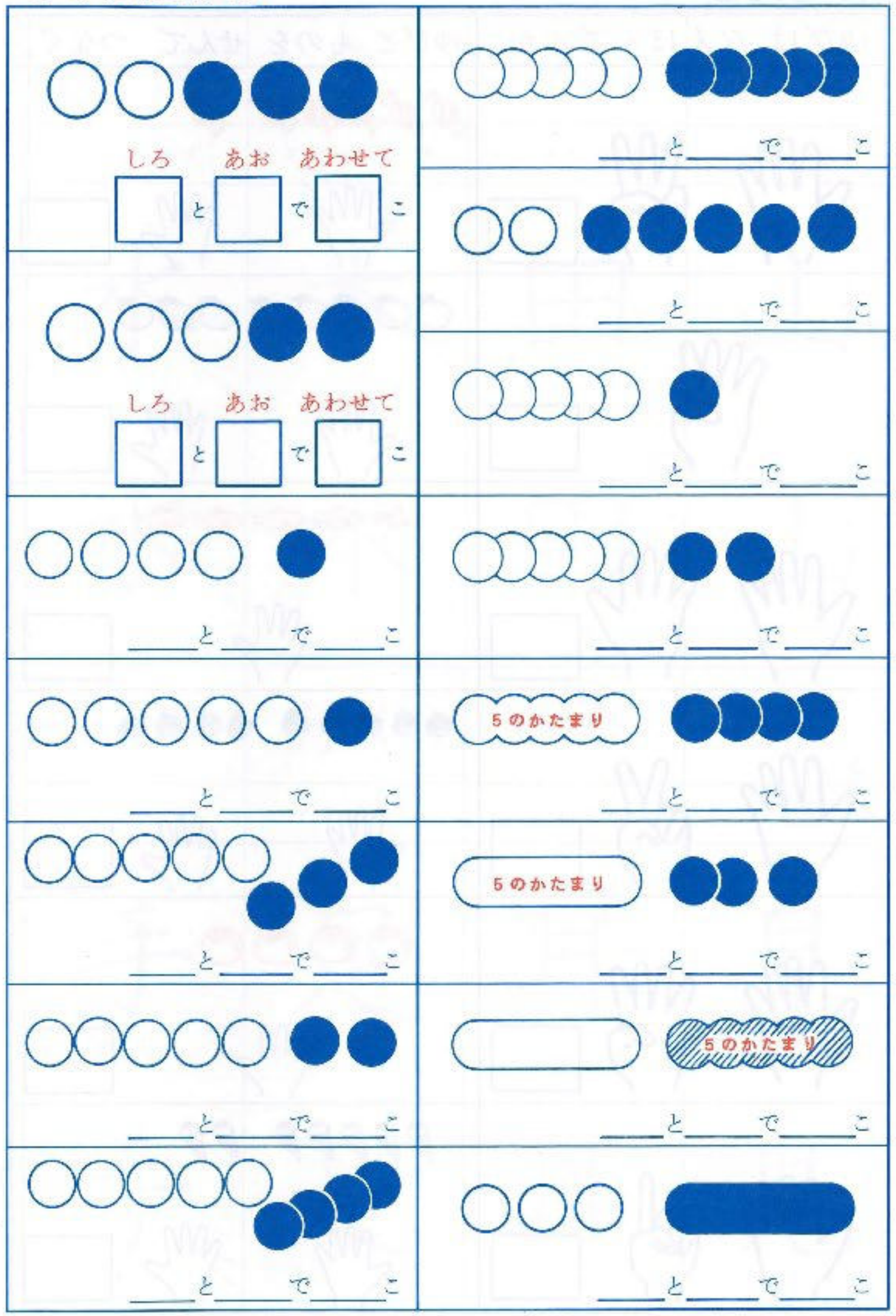

おかね

①
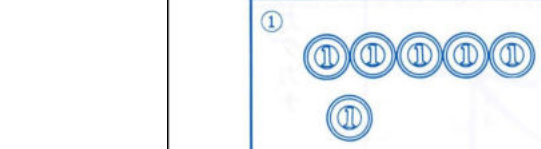
□えん

②

□えん

③

□えん

④

□えん

⑤

□えん

⑥

□えん

⑦

□えん

⑧

□えん

⑨

□えん

⑩

□えん

⑪

□えん

⑫

□えん

ぶんしょうだい

①こども

○○○が○にん います。
ふたり かえると のこりは
なんにんですか。
□にん

②ちょう

○○○が○ひき います。
7ひき ぜんぶ とんでいくと
のこりは なんびきですか。
□ひき

③つばめ

○○○が○わ います。
あと 2わ とんでくると
あわせて なんわですか。
□わ

④ねずみ

○○○が○ひき いましたが
3びき いなくなりました。
のこりは なんびきですか。
□ひき

⑤おはじき

○○○○が○こ あります。あと なんこで 10こに
なるでしょうか。
□こ

⑥いちご りんご

○○○が○こ
○○○が○こ
あわせて □こ

かたちづくり

ものさしで せんを ひき、三かく や 四かく を つくりましょう。　いろを ぬりましょう。

三かく

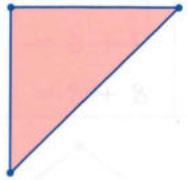

四かく

ながい四かくと三かく

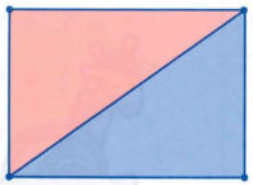

ひきざん

タイルは ぜんぶで □ こ

右からひく ←　11－2＝　11－4＝　11－3＝

左からひく →　11－7＝　11－8＝　11－9＝

タイルは ぜんぶで □ こ

右からひく ←　12－2＝　12－4＝　12－3＝

左からひく →　12－8＝　12－5＝　12－9＝

タイルは ぜんぶで □ こ

右からひく ←　13－4＝　13－3＝　13－6＝

左からひく →　13－7＝　13－9＝　13－8＝

ぜんぶで □ こ

右からひく ←　14－4＝　14－6＝　14－5＝

左からひく →　14－8＝　14－7＝　14－9＝

ぜんぶで □ こ

15－5＝　15－10＝　15－15＝　15－1＝

15－9＝　15－4＝　15－8＝　15－12＝

２年生：練習帳Ｂシリーズ（1～１８）

かきかた

★ 2Bと ソフトしたじきを つかう。

⊙ 1字ごとに えんぴつを クルリと まわして、マスからはみ出すほど 大きめに かく。

ど	ど			ふ	ふ
ん	ん	ん		で	で
ぐ	ぐ			ば	ば
り	り			こ	こ

			は
			に
			よ
			な

とけい

○ 5ずつ おおく なるよう □ の中に すうじを かきなさい。 てんすうじは なぞる。

15		25				45		60

○ とけいの すうじは、1.2.3.4～12です。 ながい はりは ふん(分)を さします。1は5ふん 2は10ぷん とよみます。 □ の中に すうじを かきいれなさい。

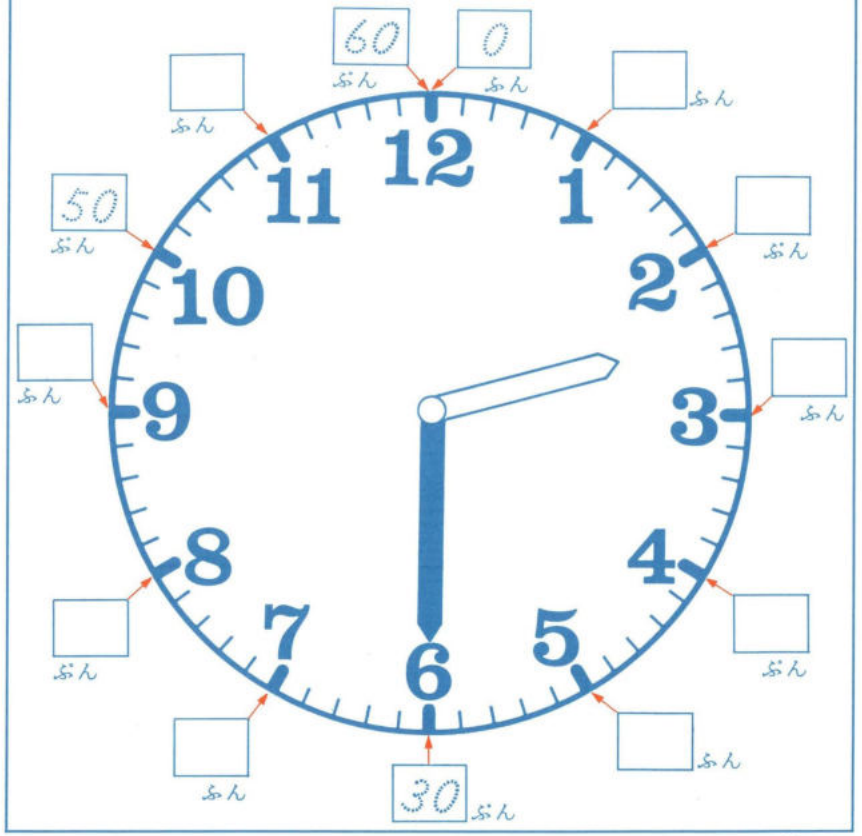

ひきざん

タイルをみて けいさんする。
やじるし↓のほうから ひいていく。

□□□□□ □□□□□ □ ぜんぶで ＿＿こ

ぜんぶで □ − 1 = □　　ぜんぶで □ − 10 = □

□ − 5 = □　　□ − 6 = □

□□□□□ □□□□□ □□ ぜんぶで ＿＿こ

ぜんぶで □ − 2 = □　　□ − 5 = □

□ − 10 = □　　□ − 7 = □

□□□□□ □□□□□ □ ぜんぶで ＿＿こ

11 − 10 =　　ぜんぶで □ − 9 =　　11 − 2 =

11 − 5 =　　□ − 7 =　　11 − 1 =

11 − 8 =　　□ − 11 =　　11 − 3 =

□□□□□ □□□□□ □□ ぜんぶで ＿＿こ

12 − 10 =　　ぜんぶで □ − 9 =　　12 − 2 =

12 − 8 =　　□ − 12 =　　12 − 4 =

12 − 5 =　　□ − 11 =　　12 − 3 =

とびすう

1		3		5		7		9	
11		13		15		17		19	
21		23		25		27		29	
	2		4		6		8		10
	12		14		16		18		20
1		3		5		7		9	
11		13		15		17		19	

2とびの かぞえかた

2	4	6	8	10	2	4	6	8	10
に	し	ろ	や	と	に	し	ろ	や	と
2	4	6	8	10	2	4	6	8	10
に	し	ろ	や	と	に	し	ろ	や	と

2とびで かぞえる。

※


○ こ


○

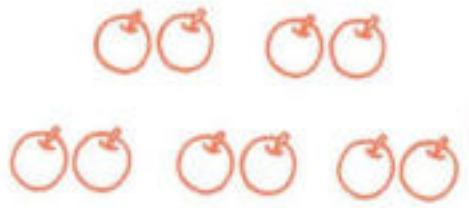
○ こ

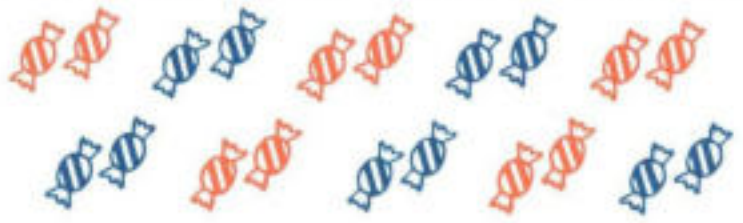
○

とけい

□の なかに、ちょうど あう
すうじを かきいれなさい。
てんすうじは なぞる。

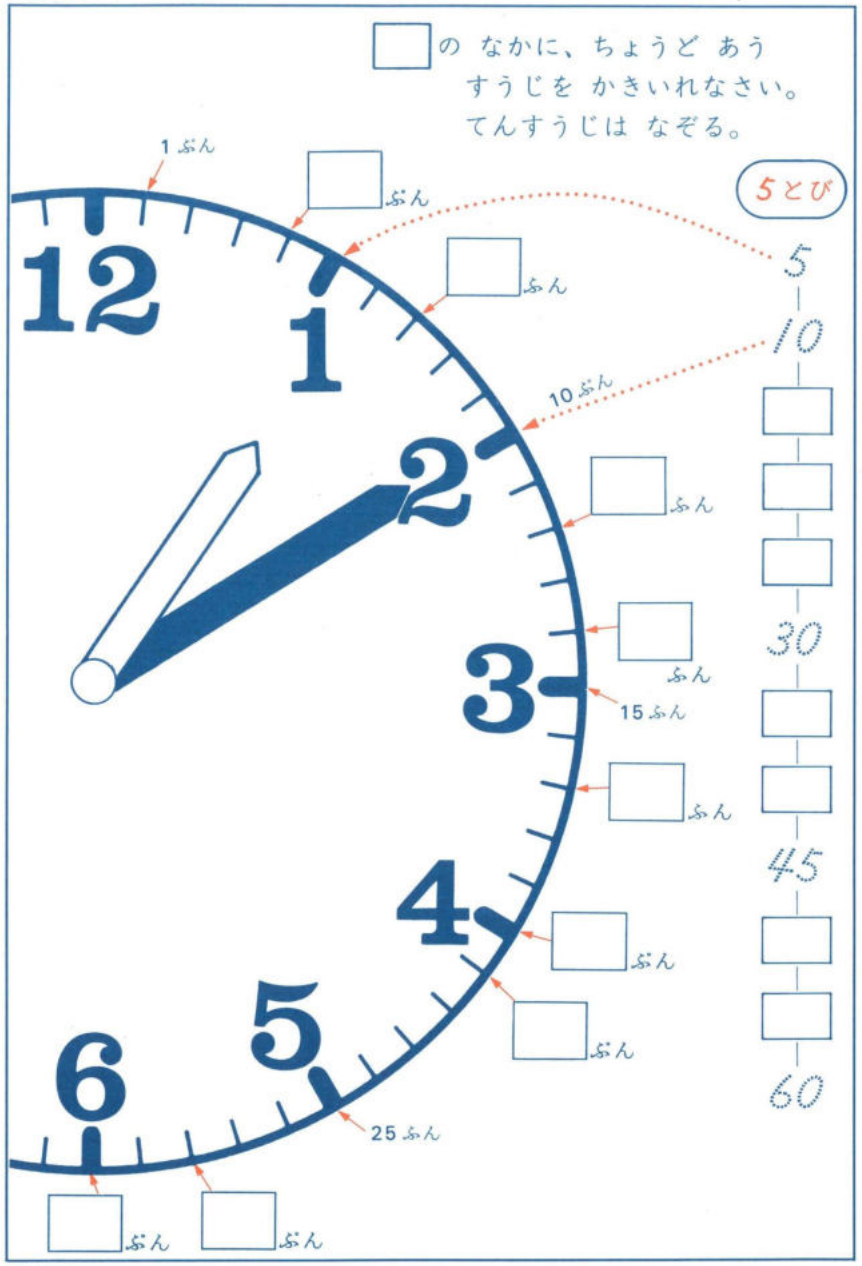

B－1

おかね・ひきざん

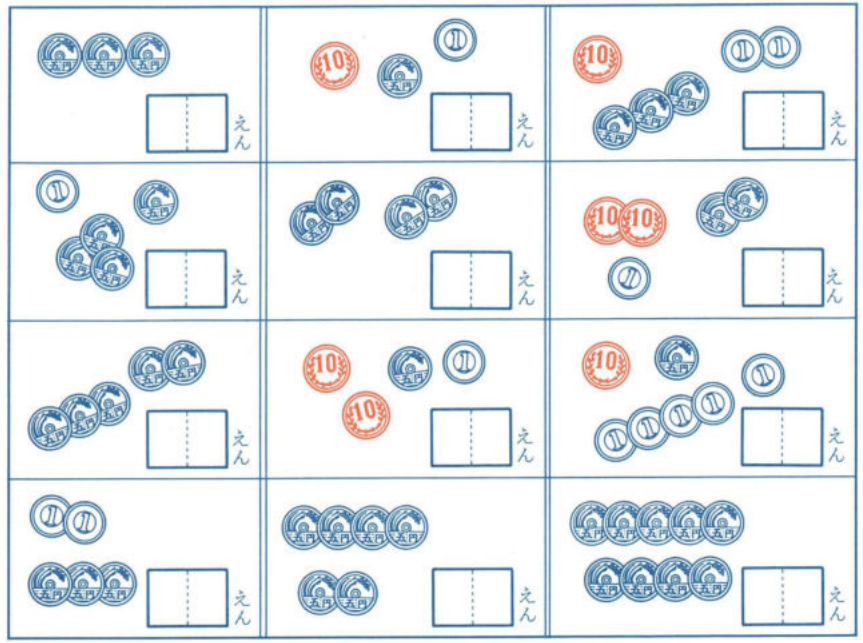

ひきざん

3 − 2 =	4 − 1 =	8 − 5 =	15 + 5 = 20
6 − 3 =	6 − 4 =	9 − 7 =	15 + □ = 18
7 − 2 =	7 − 1 =	10 − 4 =	16 + □ = 18
4 − 4 =	7 − 5 =	10 − 2 =	16 + □ = 17
5 − 4 =	8 − 2 =	○○○○○●●●●●○○	
1 − 1 =	9 − 5 =	11 − 5 =	12 − 8 =
6 − 1 =	5 − 1 =	11 − 2 =	12 − 2 =
2 − 2 =	9 − 9 =	11 − 11 =	12 − 9 =
5 − 3 =	9 − 3 =	11 − 6 =	12 − 4 =
6 − 2 =	6 − 6 =	11 − 7 =	12 − 5 =

B－1

とびすう　かけざん入門



2とびで かく。

2				10					20
22					32				40
42				50					60

ひらがな九九

ひらがなを こえを だして よみ かけざん九九を かく。
「二十七，四十五」などの よみかたは せんせいに ききましょう。

2 のだん	ご し にじゅう × =	さん・し・にじゅういち × =
に にん が し × =	ご ご にじゅうご × =	さん ば にじゅうし × =
に さん が ろく × =	ご ろく さんじゅう × =	さん く 二十七 × =
に し が はち × =	ご しち さんじゅうご × =	4 のだん
に ご じゅう × =	ご は 四十 × =	し に が はち × =
に ろく じゅうに × =	ご っ く 四十五 × =	し さん じゅうに × =
に しち じゅうし × =	3 のだん	し し じゅうろく × =
に はち じゅうろく × =	さん に が ろく × =	し ご にじゅう × =
に く じゅうはち × =	さ ざん が く × =	し・ろく・にじゅうし × =
5 のだん	さん し じゅうに × =	し・しち・にじゅうはち × =
ご に じゅう × =	さん ご じゅうご × =	し・は・さんじゅうに × =
ご さん じゅうご × =	さぶ・ろく・じゅうはち × =	し・く・さんじゅうろく × =

３年生：練習帳Ｃシリーズ（1～２０）



重さ

あうものを 線で むすびましょう。

長さを はかる・	・はかり
かさを はかる・	・ものさし
重さを はかる・	・ます

なぞる 重さは はかりで はかります

からだの 重さは たいじゅうと いいます。

たいじゅうを
はかるはかりを
体重計と いいます。

体重計

およその たいじゅう

1年生	24キロ	2年生	27キロ
3年生	30キロ	4年生	34キロ

なぞる

キログラムは kg とも 書きます。 kg kg

なぞる kgは キロとも よみます

上の 表を 見て 答えましょう。

1年生と 2年生の ちがいは ［　　kg］

2年生と 3年生の ちがいは ［　　］

3年生と 4年生の ちがいは ［　　］

C－1

わり算

同じ数に 分けましょう。

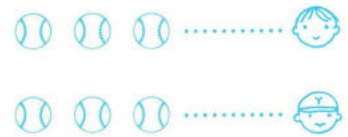

ぜんぶで　なん人　1人ぶん

□ ÷ □ ＝ □ こ

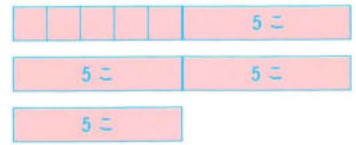

ぜんぶで　5人で分ける　1人ぶん

□ ÷ □ ＝ □ こ



ぜんぶで　なんはこ　1はこぶん

□ ÷ □ ＝ □ こ

ぜんぶで　3人ずつ　なんくみ

□ ÷ □ ＝ □ くみ

ぜんぶで　1このねだん　かえる数

□ ÷ □ ＝ □ こ

ぜんぶで　3人で分ける　1人ぶん

□ ÷ □ ＝ □ まい



ぜんぶで　なん人　1人ぶん

□ ÷ □ ＝ □ 本

ぜんぶで　6こずつ　なん人ぶん

□ ÷ □ ＝ □ 人ぶん

C－1

ソロバン

いくつですか。

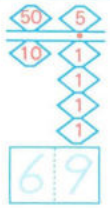

69

① 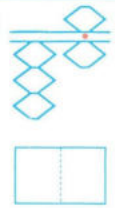

② 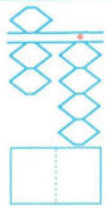

③ 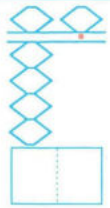

④ 

⑤ 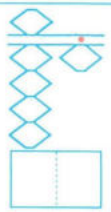

⑥ 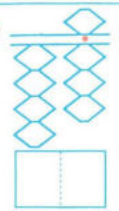

⑦ 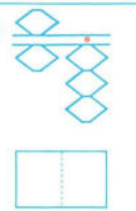

⑧ 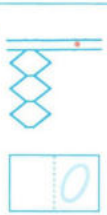

0

⑨ 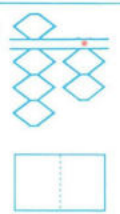

⑩ 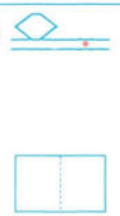

⑪ 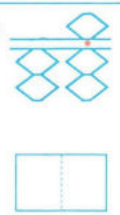

かずだけ ぬりつぶしなさい。

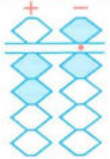

26

①

35

② 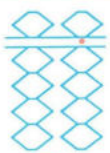

71

③ 

59

④ 

67

⑤ 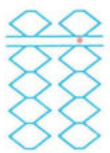

80

⑥ 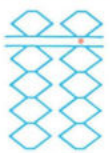

56

⑦ 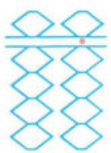

98

C－1

かん字

⑫天気よほう　⑬古い門（　）（　）

⑩田んぼの水（　）　⑪左の手（　）（　）

⑧千えんさつ　⑨目ぐすり（　）（　）

⑥おもい石（　）　⑦耳のいしゃ（　）（　）

④男の声（　）（　）　⑤金こにしまう（　）（　）

②火ようび　③右を見る（　）（　）

①村（むら）はずれの森（　）

（　）の中に よみがなを つけましょう。

答えは9ページ

かけ算（ざん）

6のだん	7のだん	8のだん	9のだん
6×2=	7×1=	8×5=	9×2=
6×4=	7×5=	8×1=	9×5=
6×3=	7×0=	8×3=	9×1=
6×0=	7×3=	8×2=	9×0=
6×1=	7×4=	8×4=	9×4=
6×6=	7×2=	8×0=	9×3=
6×5=	7×9=	8×7=	9×8=
6×7=	7×7=	8×9=	9×7=
6×9=	7×8=	8×6=	9×9=
6×8=	7×6=	8×8=	9×6=
6×10=	7×10=	8×10=	9×10=

C－1

文章題

1

さいふの中に 10円玉が 6こと 5円玉が 1こあります。
お金は ぜんぶで いくらありますか。

1つのしきで　□ × □ ＋ □ ＝ □

こたえ　□□円

2

20人を 4つのはんに 分けると、1つのはんの 人数は 何人に なりますか。

しき ＿＿＿＿＿＿

こたえ　□□人

3

あめを 8人で分けると、1人 9こずつになります。
9人で分けると、1人 何こずつになりますか。

あめは ぜんぶで ＿＿＿＿＿＿

1人分は ＿＿＿＿＿＿

こたえ　□□こ

4

つると かめが 合わせて 4ひきいて、足が 10本あります。
それぞれ 何びきいますか。

図を 書いて 考えよう

つる　かめ　○ ○ ○ ○

こたえ
つる □ ば
かめ □ びき

5

りんご 1こと みかん 1この ねだんは 140円で、
りんご 1こと みかん 2この ねだんは 190円です。

➡ □円

➡ □円

みかん 1この ねだんは

□ － □ ＝ □円

重さ

(　)に重い順に 順番を 入れなさい。

①	②	③
(　) 800g	(　) 9kg	(　) 5kg 500g
(　) 6kg 500g	(　) 1kg 300g	(　) 500g
(　) 8kg	(　) 1000g	(　) 5kg
(　) 1400g	(　) 10kg	(　) 5050g

重さの 計算を しましょう。　答えに単位をつける。

2kg ＋ 3kg ＝
8kg ＋ 1kg ＝
6kg ＋ 4kg ＝
5kg ＋ 9kg ＝

400g ＋ 150g ＝
200g ＋ 700g ＝
350g ＋ 330g ＝
580g ＋ 240g ＝

1kg 400g ＋ 3kg 200g ＝
5kg 800g ＋ 2kg 100g ＝

700g ＋ 900g ＝(　　)g ＝(　)kg (　　)g
650g ＋ 800g ＝(　　)g ＝(　)kg (　　)g

9kg － 7kg ＝
5kg － 1kg ＝
800g － 200g ＝
450g － 150g ＝
680g － 530g ＝
920g － 360g ＝

7kg 600g － 2kg 500g ＝
6kg 900g － 3kg 250g ＝

４年生：練習帳Ｄシリーズ（1～２２）

たしざん 1

標準時間5分　タイム ＿分＿秒

[1] たし算は、一の位から、順に計算します。

213
+245
458 →

① 563 + 436　② 605 + 262　③ 214 + 434　④ 724 + 233

⑤ 231 + 547　⑥ 413 + 550　⑦ 742 + 127　⑧ 303 + 241

[2] 3けたの数 2 1 3 の 2 は 百の位、1 は 十の位、3 は 一の位、これを位取りといいます。

① 250 + 209　② 600 + 254　③ 333 + 500　④ 230 + 440　⑤ 501 + 204

⑥ 470 + 200　⑦ 500 + 207　⑧ 286 + 600　⑨ 300 + 321　⑩ 662 + 136

[3] くり上がった（1）をわすれないように おぼえがき（—/—）をしなさい。

327
+216
543 →

① 128 + 349　② 444 + 237　③ 168 + 416　④ 407 + 357

⑤ 345 + 207　⑥ 308 + 408　⑦ 614 + 126　⑧ 728 + 252

[4] くり上がった（1）のおぼえがき（—/—）は、わすれないためのしるしです。

① 265 + 425　② 303 + 627　③ 452 + 508　④ 679 + 201　⑤ 606 + 304

⑥ 308 + 302　⑦ 276 + 163　⑧ 381 + 274　⑨ 240 + 195　⑩ 374 + 544

上…3分、下…2分、上下続けて…5分

標準時間5分

評価　4分…強い　5分…普通　6分以上…弱い

タイム －÷計 ＿分＿秒

1. ㊀ 暗　算　80問（3分）

—	16	20	18	17	19
1	15				
3					
6					
4					

2. ＿分＿秒 ×1.25 ＿点

—	12	14	11	13	15
7					
5					
8					
9					

3.

—	50	60	40	76	85
2					
7					
8					
9					

4.

—	21	53	32	41	64
3					
5					
6					
4					

1. ㊉ 暗　算　50問（2分）　＿分＿秒 ×2 ＿点

10 ÷ 2 =	18 ÷ 3 =	45 ÷ 5 =	36 ÷ 4 =	42 ÷ 7 =
16 ÷ 4 =	30 ÷ 6 =	32 ÷ 4 =	63 ÷ 9 =	40 ÷ 5 =
21 ÷ 3 =	12 ÷ 4 =	40 ÷ 8 =	24 ÷ 6 =	72 ÷ 8 =
25 ÷ 5 =	32 ÷ 8 =	21 ÷ 7 =	56 ÷ 7 =	42 ÷ 6 =
18 ÷ 2 =	63 ÷ 7 =	45 ÷ 9 =	24 ÷ 4 =	36 ÷ 9 =
35 ÷ 5 =	20 ÷ 4 =	54 ÷ 6 =	72 ÷ 9 =	56 ÷ 8 =

30

2.

20 ÷ 6 = …	24 ÷ 5 = …	60 ÷ 9 = …	42 ÷ 5 = …
30 ÷ 4 = …	25 ÷ 9 = …	68 ÷ 8 = …	41 ÷ 6 = …
18 ÷ 5 = …	29 ÷ 3 = …	31 ÷ 7 = …	53 ÷ 8 = …
25 ÷ 3 = …	19 ÷ 7 = …	33 ÷ 5 = …	33 ÷ 9 = …
39 ÷ 7 = …	52 ÷ 8 = …	51 ÷ 7 = …	51 ÷ 6 = …

20

わりざん 10

標準時間6分　タイム　分　秒

1 次の計算をしなさい。

① 84 ÷ 21　　② 94 ÷ 47　　③ 78 ÷ 25　　④ 70 ÷ 34

○÷△=□　　○÷△=□　　○÷△=□　　○÷△=□

△21)○84　　△47)○94　　△25)○78 上　　△34)○70

21×□=□　　47×□=□　　25×□=□ 下　　34×□=□

0　　0　　上−下=□　　上−下=□

2 一の位に商が立つ問題

2
26)52
52
0

①　24)72　　②　45)90　　③　13)52　　④　36)72

3 商にあまりのでる問題

2…4
35)74
70
4

①　25)80　　②　34)70　　③　23)95

□□□÷□□=□

3…2
55)167
165
2

④　46)277　　⑤　64)452　　⑥　75)378

253…2
5)1267

3)2825　　9)3667

省略計算

6)5094　　7)2576　　8)2000　　8)2608

4)6432　　3)8838　　4)5000　　2)9300

概数 3

標準時間6分　タイム　分　秒

1 数の切り上げ

136は、一の位の6を切り上げると、およそ140になります。

① 136ℓのミルクがとれました。これを10ℓ入りのかんに入れます。かんは何本いりますか。

13…6
10)136
10
36
30
6

10ℓ入りが13本で、あまりの6ℓにも10ℓ入りのかんが1本いります。合わせて14本となります。

136 ÷ 10 = ＿＿ … ＿＿　A.＿＿

② このように、はんぱの数を およその数にまとめることを 切り上げる といいます。また、一の位を切り上げて十の位まで求めるともいいます。

③ 443→450　このようなことを（　の位を　）といいます。

2 次の数を、それぞれ およその数に直しなさい。

①	一の位を切り捨て十の位まで	376	＿＿	843	＿＿
②	十の位以下を切り捨て百の位まで	529	＿＿	3084	＿＿
③	十の位以下を切り上げ百の位まで	641	＿＿	7258	＿＿
④	百の位以下を切り上げ千の位まで	20903	＿＿	56141	＿＿
⑤	百の位以下を切り捨てる	45720	＿＿	98168	＿＿
⑥	千の位以下を切り捨てる	123697	＿＿	587023	＿＿
⑦	千の位以下を切り上げる	844183	＿＿	629709	＿＿
⑧	一万の位以下を切り上げる	2573561	＿＿	4832950	＿＿

3 何こ買えますか。

100円で		200円で		1000円で	
18円のもの	こ	48円のもの	こ	190円のもの	こ
29円のもの	こ	62円のもの	こ	310円のもの	こ

2-2-2.計算練習帳（年長~4年生 15分冊）

年長３分冊

17級・なぞり1

月　日　分　秒　級　なまえ

●から　はじめる。

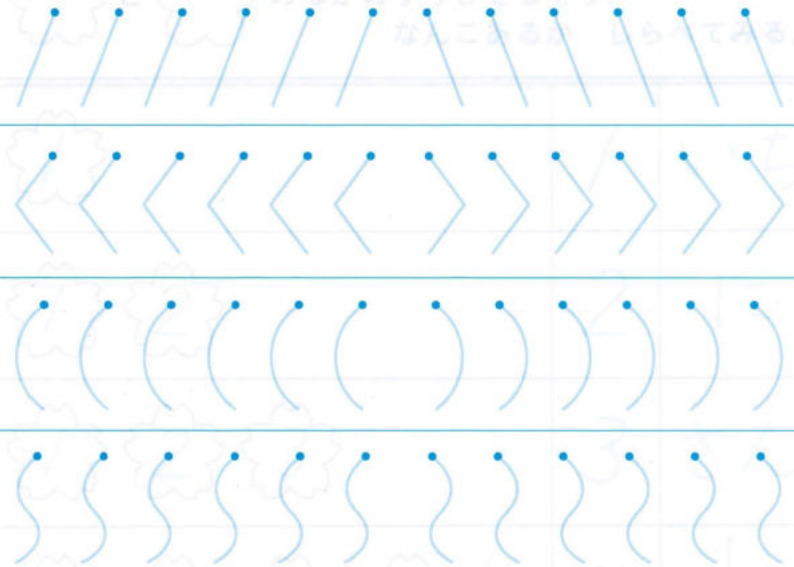

バツ(ばつ)とマル(まる)のれんしゅう。
かきじゅん(1・2)どおりになぞる。

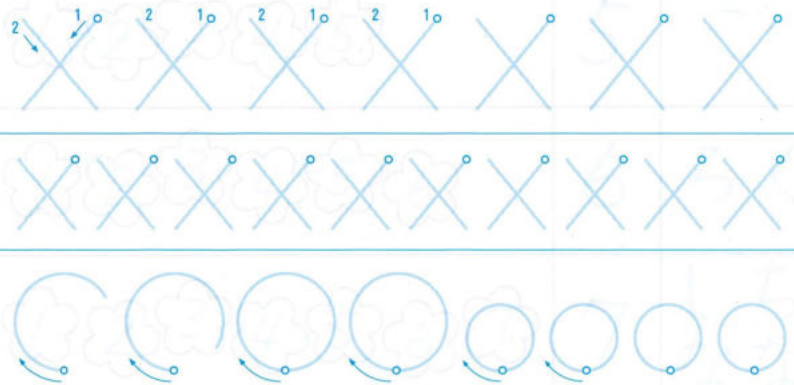

●4〜5ふんでしあげましょう。●すうじは　ていねいに。

17級・なんこですか

月　日　分　秒　級　なまえ

と

のなかのすうじをなぞり、
なんこあるか　しらべてみる。

1	1	いち
1 2	2	に
1 2 3	3	さん
1 2 3 4	4	し よん
1 2 3 4 5	5	ご
1 2 3 4 5 6	6	ろく
1 2 3 4 5 6 7	7	しち なな

●4〜5ふんでしあげましょう。●すうじは　ていねいに。

16級・せんでつなぐ2

月　日	分　秒	級	なまえ

せんでつないで、かずだけ○をぬりつぶす。

①

②

③

④

⑤

⑥

●4～5ふんでしあげましょう。　●すうじは ていねいに。

16級・いちとひとつ

月　日	分　秒	級	なまえ

やりかた

せんをひいてかぞえる。 → すうじをいれる。 → なぞる ご → なぞる いつつ

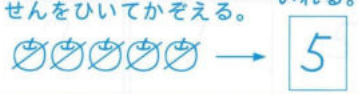

	=		さん　みっつ
	=		に　ふたつ
	=		ご　いつつ
	=		いち　ひとつ
	=		し・よん　よっつ
	=		しち・なな　ななつ
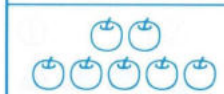	=		はち　やっつ
	=		ろく　むっつ
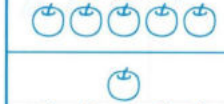	=		じゅう　とお
	=		く・きゅう　ここのつ

●4～5ふんでしあげましょう。　●すうじは ていねいに。

15級・なぞり4

月　日　分　秒　級　なまえ

・からはじめる。



バツ（ばつ）とマル（まる）のれんしゅう。

かきじゅん（1・2）どおりになぞる。

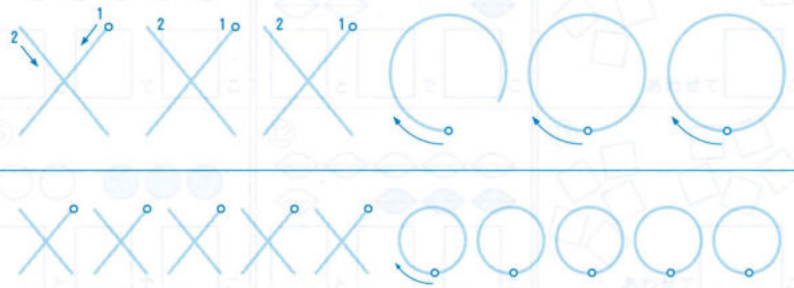

・4〜5ふんでしあげましょう。・すうじは ていねいに。

15級・かぞえる2

月　日　分　秒　級　なまえ

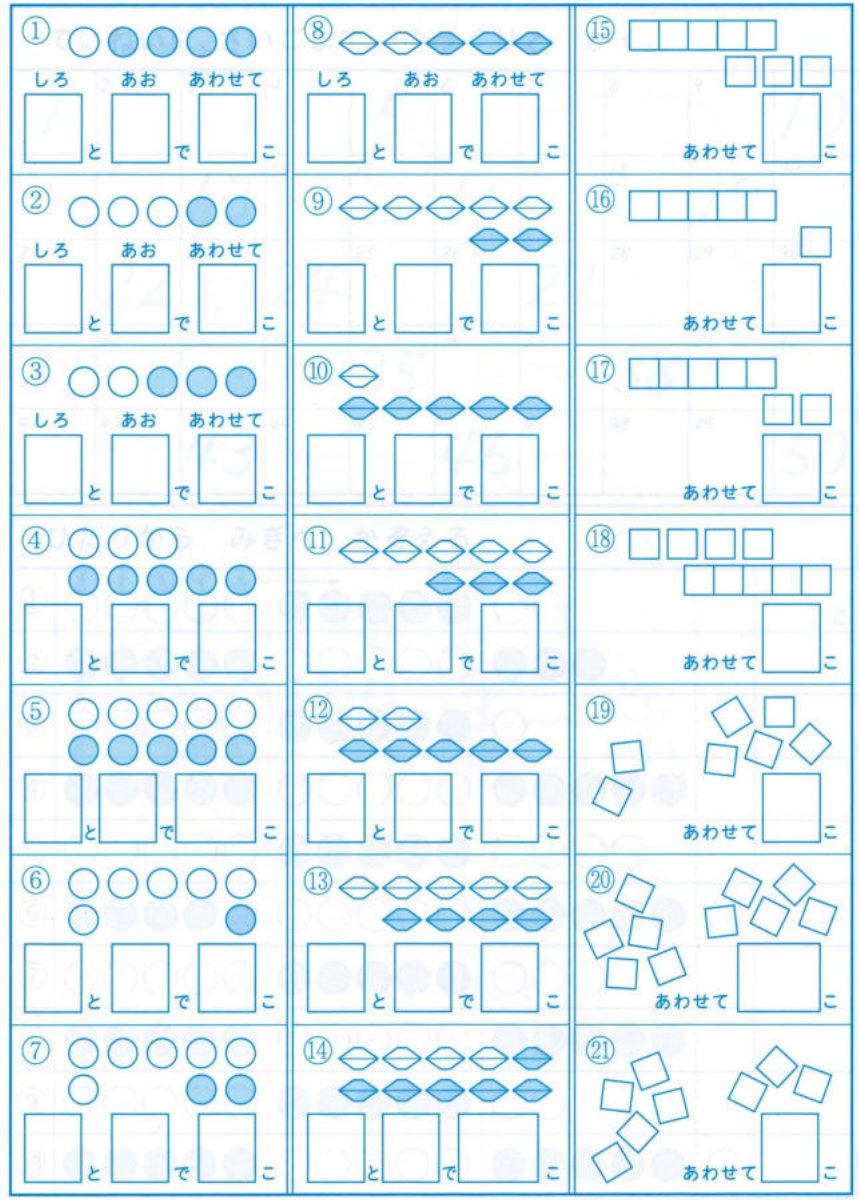

・4〜5ふんでしあげましょう。・すうじは ていねいに。

１年生３分冊

14級
けいさんれんしゅうちょう 14級
計算プリント
アメリカン・ショートヘア
（くっきりとした しまもようを しているよ）
なまえ
●けいさんプリント
1まいを 4～5ふんくらいで
けいさんします。さいごまで
おわったら なんぷん なんびょうで できたか、タイムを きにゅうします。
基礎学習練習帳との対応関係
入門シリーズ Ⓐシリーズ Ⓑシリーズ Ⓒシリーズ Ⓓシリーズ
17級 16級 15級 14級 13級 12級 11級 10級 9級 8級 7級 6級 5級 4級 3級
日本基礎学習協会 指定教材 新村教育研究所 編
13級
けいさんれんしゅうちょう 13級
計算プリント
メインクーン
（くびもとの けが ふさふさ しているよ）
なまえ
●けいさんプリント
1まいを 4～5ふんくらいで
けいさんします。さいごまで
おわったら なんぷん なんびょうで できたか、タイムを きにゅうします。
基礎学習練習帳との対応関係
入門シリーズ Ⓐシリーズ Ⓑシリーズ Ⓒシリーズ Ⓓシリーズ
16級 15級 14級 13級 12級 11級 10級 9級 8級 7級 6級 5級 4級 3級
日本基礎学習協会 指定教材 新村教育研究所 編
12級
けいさんれんしゅうちょう 12級
計算プリント
アメリカン・ワイヤーヘア
（たわしのように ごわごわしたけを しているよ）
なまえ
●けいさんプリント
1まいを 4～5ふんくらいで
けいさんします。さいごまで
おわったら なんぷん なんびょうで できたか、タイムを きにゅうします。
基礎学習練習帳との対応関係
入門シリーズ Ⓐシリーズ Ⓑシリーズ Ⓒシリーズ Ⓓシリーズ
16級 15級 14級 13級 12級 11級 10級 9級 8級 7級 6級 5級 4級 3級
日本基礎学習協会 指定教材 新村教育研究所 編

基礎計算テスト

Ⓐ14・13・12級・数さがし　100問〈3分〉

月　日　タイム　分　秒　級　なまえ　点

（1問1点）

- 3ぷんで、どこまで できるか ちょうせんしよう。
- しゅうてんに あかいせんをひく。
- すうじは ていねいに。

5になるかずは

○	4	/	○	3		○	8	○	5		○	9	
○	3		○	1		○	5	○	7		○	6	
○	1		○	2		○	9	○	4		○	5	
○	2		○	5		○	6	○	8		○	10	
○	5		○	4		○	7	○	6		○	1	
	2			1		●	4	●	9		●	3	
	5			3		●	1	●	10		●	4	
	4			5		●	3	●	2		●	7	
	3			4		●	2	●	3		●	8	
	1			2			10		1			2	
		10			20			30			40		50

10になるかずは

6

○	2	
○	5	
○	4	
○	1	
○	6	
●	4	
	3	
	2	
	6	
	5	
	60	

7

○	6	
○	4	
○	7	
○	3	
○	2	
●	1	
●	5	
	6	
	2	
	4	
	70	

8

○	7	
○	8	
○	5	
○	3	
○	6	
●	2	
●	4	
●	0	
	1	
	3	
	80	

9

○	1	
○	6	
○	8	
○	4	
○	7	
●	3	
●	2	
●	5	
	9	
	0	
	90	

11

○	8	
○	2	
○	10	
○	5	
○	6	
●	3	
●	1	
●	4	
●	7	
○	9	
	100	

ここまで 14級　ここまで 13級　ここまで 12級

2.00 2.10 2.20 2.30 2.40 2.50

100 95 90 85 80 75 70

65 60 ○ 60未満

Aさ

13級・お金1

月　日　分　秒　級　なまえ

ぜんぶで いくら ありますか。

- 4～5ふんで けいさんしましょう。
- すうじは ていねいに。

① ② ③ ④ ⑤ ⑥ ⑦ ⑧ ⑨ ⑩ ⑪ ⑫ ⑬ ⑭

えん

No. 131 お金1

２年生３分冊

11級
計算れんしゅうちょう 11級
計算プリント
（さんかくがおで からだの さきは チョコいろです）
なまえ
●計算プリント
1まいを 4～5分くらいで
計算します。さいごまで 終わったら
なん分 なんぴょうで できたか、タイムを 記入します。数字は きれいに ていねいに。
基礎学習練習帳との対応関係
入門シリーズ Ⓐシリーズ Ⓑシリーズ Ⓒシリーズ Ⓓシリーズ
17級 16級 15級 14級 13級 12級 11級 10級 9級 8級 7級 6級 5級 4級 3級
日本基礎学習協会 指定教材 新村教育研究所 編
10級
計算れんしゅうちょう 10級
計算プリント
（いぬの ダックスフンドみたいと いわれるよ）
なまえ
●計算プリント
1まいを 4～5分くらいで
計算します。さいごまで 終わったら
なん分 なんぴょうで できたか、タイムを 記入します。数字は きれいに ていねいに。
基礎学習練習帳との対応関係
入門シリーズ Ⓐシリーズ Ⓑシリーズ Ⓒシリーズ Ⓓシリーズ
16級 15級 14級 13級 12級 11級 10級 9級 8級 7級 6級 5級 4級 3級
日本基礎学習協会 指定教材 新村教育研究所 編
9級
計算れんしゅうちょう 9級
計算プリント
（もこもこしたけに おおわれているよ）
なまえ
●計算プリント
1まいを 4～5分くらいで
計算します。さいごまで 終わったら
なん分 なんぴょうで できたか、タイムを 記入します。数字は きれいに ていねいに。
基礎学習練習帳との対応関係
入門シリーズ Ⓐシリーズ Ⓑシリーズ Ⓒシリーズ Ⓓシリーズ
16級 15級 14級 13級 12級 11級 10級 9級 8級 7級 6級 5級 4級 3級
日本基礎学習協会 指定教材 新村教育研究所 編

基礎計算テスト

Ⓑ11・10・9級・数さがし　100問〈3分〉

月　日　タイム　分　秒　級　なまえ　点

5	10	6	7	8
1	5	2	7	6
4	1	3	5	2
2	3	4	6	7
5	9	1	4	3
3	7	6	2	8
4	10	5	3	2
1	8	2	4	7
3	4	1	0	1
2	6	4	5	4
5	2	3	1	
10	20	30	40	50

9	11	12	13	14
4	10	3	8	9
9	7	2	6	4
1	5	9	7	5
5	8	10	5	2
7	6	1	9	10
8	9	5	4	7
2	11	6	2	3
3	1	12	0	8
0	3	4	10	6
6	0	8	3	12
60	70	80	90	100
ここまで 11級		ここまで 10級		ここまで 9級

2.00 2.10 2.20 2.30 2.40 2.50

100 95 90 85 80 75 70

65 60 ○ 60未満

（1問1点）
●3分で、どこまで できるか挑戦しよう。
●終点（おわり）に赤い線をひく。
●数字はていねいに。

Bさ

11・10・9級　数さがし100 Ⓑ

10級・⊗ひらがな九九2

月　日　分　秒　級　なまえ

九九の表をみて、かけざん九九をかく。

6のだん	7のだん	8のだん
ろく いち が ろく	しち いち が しち	はち いち が はち
6 × 1 = 6	× =	× =
ろく に じゅうに	しち に じゅうし	はち に じゅうろく
× =	× =	× =
ろく さん じゅうはち	しち さん にじゅういち	はっ さん にじゅうし
× =	× =	× =
ろく し にじゅうし	しち し にじゅうはち	はっ し さんじゅうに
× =	× =	× =
ろく ご さんじゅう	しち ご さんじゅうご	はち ご しじゅう
× =	× =	× =
ろく ろく さんじゅうろく	しち ろく しじゅうに	はち ろく しじゅうはち
× =	× =	× =
ろく しち しじゅうに	しち しち しじゅうく	はち しち ごじゅうろく
× =	× =	× =
ろく は しじゅうはち	しち は ごじゅうろく	はっ ぱ ろくじゅうし
× =	× =	× =
ろっ く ごじゅうし	しち く ろくじゅうさん	はっ く しちじゅうに
× =	× =	× =

9のだん　※九九の表をみてかく。		
く いち が く	く し さんじゅうろく	く しち ろくじゅうさん
× =	× =	× =
く に じゅうはち	く ご しじゅうご	く は しちじゅうに
× =	× =	× =
く さん にじゅうしち	く ろく ごじゅうし	く く はちじゅういち
× =	× =	× =

●4〜5分でしあげましょう。
●数字はていねいに。

３年生３分冊

8級
計算練習帳 8級
計算プリント
にほんねこ みけ
（くろ・しろ・ちゃの ぶちもようです）
なまえ
●計算プリント
1まいを 4～5分くらいで
計算します。最後まで 終わったら
何分 何秒で できたか、タイムを 記入します。数字は きれいに ていねいに。
●いろいろ算・数さがし
タイマーを 3分にセットして始め、何問できたか 記録を とります。
基礎学習練習帳との対応関係
入門シリーズ Ⓐシリーズ Ⓑシリーズ Ⓒシリーズ Ⓓシリーズ
17級 16級 15級 14級 13級 12級 11級 10級 9級 8級 7級 6級 5級 4級 3級
日本基礎学習協会 指定教材
新村教育研究所 編
7級
計算練習帳 7級
計算プリント
スフィンクス
（けが なんにも ないんだよ）
なまえ
●計算プリント
まいを 4～5分くらいで
算します。最後まで 終わったら
分 何秒で できたか、タイムを 記入します。数字は きれいに ていねいに。
いろいろ算・数さがし
イマーを 3分にセットして始め、何問できたか 記録を とります。
基礎学習練習帳との対応関係
門シリーズ Ⓐシリーズ Ⓑシリーズ Ⓒシリーズ Ⓓシリーズ
16級 15級 14級 13級 12級 11級 10級 9級 8級 7級 6級 5級 4級 3級
日本基礎学習協会 指定教材
新村教育研究所 編
6級
計算練習帳 6級
計算プリント
ベルシャ
（べしゃんこがおで ながいけを しているよ）
なまえ
●計算プリント
まいを 4～5分くらいで
算します。最後まで 終わったら
分 何秒で できたか、タイムを 記入します。数字は きれいに ていねいに。
いろいろ算・数さがし
イマーを 3分にセットして始め、何問できたか 記録を とります。
基礎学習練習帳との対応関係
門シリーズ Ⓐシリーズ Ⓑシリーズ Ⓒシリーズ Ⓓシリーズ
16級 15級 14級 13級 12級 11級 10級 9級 8級 7級 6級 5級 4級 3級
日本基礎学習協会 指定教材
新村教育研究所 編

Ⓒ 8・7・6級・数さがし　100問　3分

月　日	タイム 分　秒	級	なまえ	問まで

11		12		13		14		15	
①	6	⑪	5	㉑	9	㉛	10	㊶	3
②	9	⑫	2	㉒	12	㉜	9	㊷	1
③	5	⑬	7	㉓	0	㉝	12	㊸	10
④	8	⑭	4	㉔	7	㉞	8	㊹	15
⑤	7	⑮	3	㉕	5	㉟	7	㊺	8
⑥	2	⑯	10	㉖	8	㊱	3	㊻	11
⑦	3	⑰	8	㉗	1	㊲	2	㊼	9
⑧	1	⑱	9	㉘	3	㊳	4	㊽	5
⑨	4	⑲	6	㉙	11	㊴	6	㊾	7
⑩	10	⑳	12	㉚	4	㊵	5	㊿	6
		とうきょう 20 東京		うえの 30 上野		おおみや 40 大宮		うつのみや 50 宇都宮	

16		17		18		19		20	
㊶	9	㊶	15	㊶	7	㊶	8	㊶	10
㊷	4	㊷	13	㊷	10	㊷	5	㊷	15
㊸	11	㊸	4	㊸	9	㊸	0	㊸	17
㊹	7	㊹	9	㊹	2	㊹	12	㊹	3
㊺	2	㊺	7	㊺	4	㊺	7	㊺	5
㊻	15	㊻	6	㊻	11	㊻	3	㊻	8
㊼	8	㊼	2	㊼	8	㊼	9	㊼	11
㊽	3	㊽	14	㊽	6	㊽	11	㊽	13
㊾	12	㊾	0	㊾	3	㊾	6	㊾	20
㊿	6	㊿	8	㊿	15	㊿	16	㊿	6
	こおりやま 60 郡山 8級	ふくしま 70 福島		せんだい 80 仙台 7級		もりおか 90 盛岡		はちのへ 100 八戸 6級	

※記録(きろく)をとる。

●終点(しゅうてん)(おわり)に赤い線をひく。

●数字はていねいに。

7級・⊕あんざん入門　(2・2＝2・3)1　27問

月　日	分　秒	級	なまえ

① 23 + 45 → ① ② → 6	⑩ 25 + 25 → ① ② → 40 + □ = 50	⑲ 50 + 52 → □ + □ = 102
② 22 + 33 → ① ② → □	⑪ 23 + 47 → □ + 10 = 7	⑳ 53 + 76 → □ + □ = 129
③ 46 + 32 → □	⑫ 39 + 54 → □ + 13 = □	㉑ 35 + 66 → □ + □ = 101
④ 50 + 27 → □	⑬ 48 + 17 → □ + □ = 65	㉒ 68 + 95 → 150 + □ = □
⑤ $\dot{3}5+\dot{2}0=$	⑭ $\dot{7}5+\dot{1}5=$	㉓ $\dot{7}7+\dot{3}9=$
⑥ $\dot{5}4+\dot{1}2=$	⑮ $\dot{1}5+\dot{4}7=$	㉔ $\dot{8}7+\dot{6}8=$
⑦ $\dot{3}8+\dot{5}1=$	⑯ $\dot{4}8+\dot{2}5=$	㉕ $\dot{7}9+\dot{4}5=$
⑧ $\dot{4}4+\dot{5}4=$	⑰ $\dot{3}6+\dot{4}8=$	㉖ $\dot{6}5+\dot{8}8=$
⑨ $\dot{1}2+\dot{6}7=$	⑱ $\dot{5}8+\dot{3}4=$	㉗ $\dot{9}4+\dot{2}7=$

●4～5分で計算しましょう。

●数字はていねいに。

４年生３分冊

5 級
計算練習帳 5級
計算プリント
ベンガル
(ひょうのような もようを しているよ)
氏
名
●計算プリント
1まいを 4～5分くらいで
計算します。最後まで 終わったら
何分 何秒で できたか、タイムを 記入します。数字は きれいに ていねいに。
●いろいろ算・数さがし
タイマーを 3分にセットして始め、何問できたか 記録を とります。
基礎学習練習帳との対応関係
入門シリーズ
Ⓐシリーズ
Ⓑシリーズ
Ⓒシリーズ
Ⓓシリーズ
17級 16級 15級 14級 13級 12級 11級 10級 9級 8級 7級 6級 5級 4級 3級
日本基礎学習協会 指定教材
新村教育研究所 編
4 級
計算練習帳 4級
計算プリント
アメリカン・カール
(みみが うしろむきに くりんと カールしているよ)
氏
名
●計算プリント
1まいを 4～5分くらいで
計算します。最後まで 終わったら
何分 何秒で できたか、タイムを 記入します。数字は きれいに ていねいに。
●いろいろ算・数さがし
タイマーを 3分にセットして始め、何問できたか 記録を とります。
基礎学習練習帳との対応関係
Ⓐシリーズ
Ⓑシリーズ
Ⓒシリーズ
Ⓓシリーズ
16級 15級 14級 13級 12級 11級 10級 9級 8級 7級 6級 5級 4級 3級
日本基礎学習協会 指定教材
新村教育研究所 編
3 級
計算練習帳 3級
計算プリント
アビシニアン
(スマートな からだを しているよ)
計算プリント
まいを 4～5分くらいで
算します。最後まで 終わったら
分 何秒で できたか、タイムを 記入します。数字は きれいに ていねいに。
ろいろ算・数さがし
マーを 3分にセットして始め、何問できたか 記録を とります。
基礎学習練習帳との対応関係
Ⓐシリーズ
Ⓑシリーズ
Ⓒシリーズ
Ⓓシリーズ
16級 15級 14級 13級 12級 11級 10級 9級 8級 7級 6級 5級 4級 3級
日本基礎学習協会 指定教材
新村教育研究所 編

Ⓓ 5・4・3級・数さがし　100問　3分

月　日　タイム　分　秒　級　氏名　問まで

15		20		30		50		64	
①	5	⑪	8	㉑	25	㉛	45	㊶	60
②	7	⑫	4	㉒	23	㉜	43	㊷	57
③	9	⑬	15	㉓	28	㉝	46	㊸	59
④	10	⑭	14	㉔	2	㉞	3	㊹	6
⑤	8	⑮	9	㉕	7	㉟	10	㊺	8
⑥	3	⑯	7	㉖	4	㊱	18	㊻	30
⑦	6	⑰	12	㉗	15	㊲	20	㊼	32
⑧	12	⑱	6	㉘	11	㊳	25	㊽	40
⑨	13	⑲	10	㉙	16	㊴	35	㊾	22
⑩	11	⑳	17	㉚	19	㊵	39	㊿	15
じょのくち 序之口		じょにだん 20 序二段		さんだんめ 30 三段目		まくした 40 幕下		じゅうりょう 50 十両	

72		100		500		1000	
㊶	30	㊶	95	㊶	40	㊶	496	㊶	995
㊷	22	㊷	98	㊷	45	㊷	491	㊷	992
㊸	24	㊸	4	㊸	55	㊸	470	㊸	930
㊹	60	㊹	7	㊹	25	㊹	410	㊹	974
㊺	7	㊺	30	㊺	29	㊺	170	㊺	750
㊻	5	㊻	35	㊻	70	㊻	280	㊻	640
㊼	48	㊼	60	㊼	71	㊼	340	㊼	880
㊽	51	㊽	66	㊽	86	㊽	275	㊽	888
㊾	63	㊾	23	㊾	88	㊾	255	㊾	403
㊿	17	㊿	19	㊿	14	㊿	345	㊿	329
まえがしら 60 前頭 5級		こむすび 70 小結		せきわけ 80 関脇 4級		おおぜき 90 大関		よこづな 100 横綱 3級	

※記録をとる。
- 終点（おわり）に赤い線をひく。
- 数字はていねいに。

3級・大きなかず2　32問

月　日　分　秒　級　氏名

【たしざん】 答えはふつうの数字で。

① 五十万 ＋ 八百万 ＝　万
② 四百万 ＋ 千六百万 ＝　万
③ 二百八十万 ＋ 百七十万 ＝　万
④ 五百十万 ＋ 三千五十万 ＝　万
⑤ 五千八百万 ＋ 千九百万 ＝　万
⑥ 六億 ＋ 三百万 ＝　億　万
⑦ 一億五千万 ＋ 七千万 ＝　億　万
⑧ 七千二百万 ＋ 二千八百万 ＝　億

【ひきざん】 答えはふつうの数字で。

⑨ 百万 － 十九万 ＝　万
⑩ 一億 － 八千万 ＝　万
⑪ 四百万 － 五十万 ＝　万
⑫ 一千万 － 百二十万 ＝　万
⑬ 八千六百万 － 二千万 ＝　万
⑭ 一千万 － 七百三十万 ＝　万
⑮ 三百二十万 － 九十万 ＝　万
⑯ 六十一万 － 二十四万 ＝　万

【かけざんとわりざん】（　）に桁数（けたすう）を入れて計算。答えはふつうの数字で。

千	百	十	一	千	百	十	一	千	百	十	一	千	百	十	一
兆（ちょう）				億（おく）				万							

⑰ 八百 × 七十 ＝（　）
⑱ 七十 × 四百 ＝（　）
⑲ 四十 × 五万 ＝（　）　万
⑳ 三千 × 二百 ＝・（　）　万
㉑ 七百 × 六百 ＝（　）　万
㉒ 三万 × 三百 ＝・（　）　万
㉓ 六百 × 九万 ＝（　）　万
㉔ 四万 × 二万 ＝・（　）　億
㉕ 三千 ÷ 六十 ＝（　）
㉖ 九万 ÷ 三十 ＝・（　）
㉗ 四万 ÷ 五十 ＝（　）
㉘ 六十万 ÷ 三万 ＝・（　）
㉙ 百二十万 ÷ 四千 ＝（　）
㉚ 四千五百万 ÷ 九万 ＝（　）
㉛ 八百万 ÷ 二百 ＝・（　）　万
㉜ 三千六百万 ÷ 六百 ＝（　）　万

- 4〜5分で計算しましょう。
- 数字はていねいに。

No. 306 大きなかず2

2-2-3.文章題（年長~5年生まで18分冊）

年長２分冊

文 15級－1回 文章題

なまえ ＿＿＿＿＿＿＿＿ 点

こえを だして よむ。いくつ あるか かぞえて みましょう。

15級

1問 10点	えんぴつ 5 ほん	こども ◯ にん	
	ぞう ◯ とう	たこ ◯ ぴき	いか ◯ ひき

1 15

えんぴつが ◯ ほん あります。けずってないのは、□ほん

2 15

◯◯◯が ◯ にん います。

よこを むいている ひとは、□にん

3 15



◯◯が ◯ とう います。

そのうち こどものぞうは、□とう

4 15



◯◯が ◯ ぴき

◯◯が ◯ ひき

あわせて、□ぴき

(5分) 文15－1

文 15級－10回 文章題

なまえ ＿＿＿＿＿＿＿＿ 点

15級

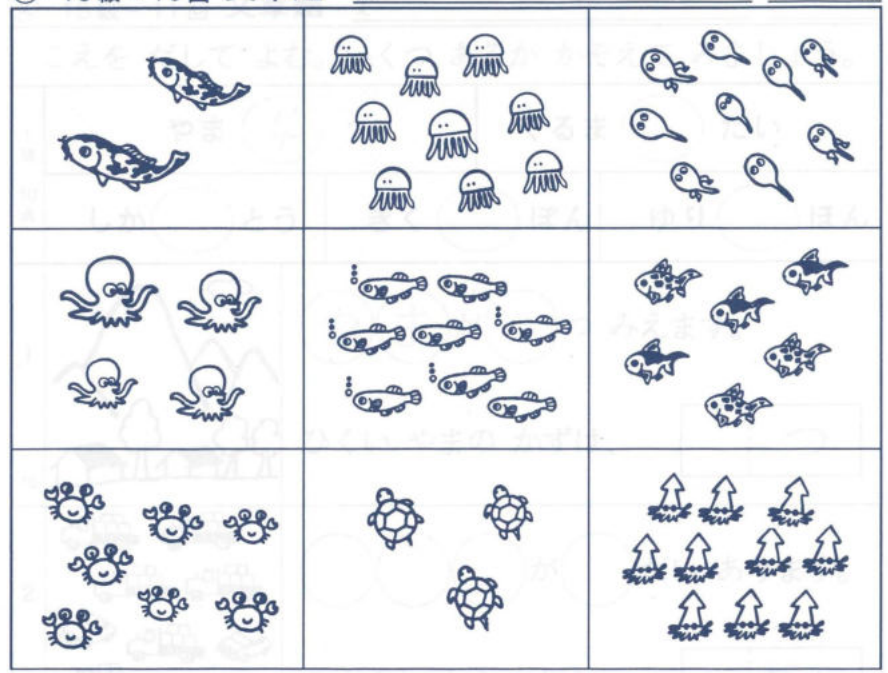

うえの えを よくみて かぞえましょう。

1	たこは なんびき	□ ひき	5	かめは なんびき	□ びき
2	こいは なんびき	□ ひき	6	めだかは なんびき	□ びき
3	かには なんびき	□ ひき	7	いかは なんびき	□ びき
4	くらげは なんびき	□ ひき	8	きんぎょは	□ びき
9	あしが はえている おたまじゃくしは				□ ひき
10	あぶくを だしている めだかは なんびきですか。				□ ひき

(5分) 文15－10

１年生３分冊

ぶんしょうだい
文章題 13級
新村式 進級方式
A−1
なまえ
● 注意
1. 計算力が未熟だとなかなか解けません。
2. 進級は巻末のテストで平均85点以上。
3. 不合格の場合、同じ問題集を繰り返す。
4. 60点以下が続く場合、降級します。
5. 数詞まちがい…5点減
6. 2題で1問、その片方は5−10点減
7. 5×10が10×5の場合減点
8. 答欄が合っていても式が違う場合減点
15級 14級 13級 12級 11級
テスト1 テスト2 テスト3 テスト4 合・否
学習経過
日本基礎学習協会 指定教材 新村教育研究所 編
ぶんしょうだい
文章題 12級
新村式 進級方式
A−2
なまえ
● 注意
1．計算力が未熟だとなかなか解けません。
2．進級は巻末のテストで平均85点以上。
3．不合格の場合、同じ問題集を繰り返す。
4．60点以下が続く場合、降級します。
5．数詞まちがい…5点減
6．2題で1問、その片方は5～10点減
7．5×10が10×5の場合減点
8．答欄が合っていても式が違う場合減点
15級 14級 13級 12級 11級
テスト1 テスト2 テスト3 テスト4 合・否
日本基礎学習協会 指定教材 新村教育研究所 編
ぶんしょうだい
文章題 11級
新村式 進級方式
A−3
なまえ
● 注意
1．計算力が未熟だとなかなか解けません。
2．進級は巻末のテストで平均85点以上。
3．不合格の場合、同じ問題集を繰り返す。
4．60点以下が続く場合、降級します。
5．数詞まちがい…5点減
6．2題で1問、その片方は5～10点減
7．5×10が10×5の場合減点
8．答欄が合っていても式が違う場合減点
13級 12級 11級 10級
テスト1 テスト2 テスト3 テスト4 合・否
日本基礎学習協会 指定教材 新村教育研究所 編

文13級－1回　**文章題**　なまえ　　点

1		きしゃが 3だい あります。けむりの でていないのは、なんだいですか。 □だい
2		きゅうりが 4本(ほん) あります。あと なん本(ぼん)で、8本(ぼん)に なりますか。 ○○○○○○○○ (4 8) □本(ほん)
3		白(しろ)いえんぴつが○本(ほん)、青(あお)が○本(ぼん)あります。どちらが なん本(ぼん) おおいでしょうか。 なぞる→ しろ が □本(ほん) おおい
4	○を 3こと 2こ かく。 なぞる ○○○ と で	ぜんぶで □こ
5	こうえんに ハト(はと)が 7わ いました。そこへ 1わ とんできました。あわせて なんわですか。 なぞる→ 7 □(+−) □ = □わ	
6	スリッパ(すりっぱ)が 6そく ありました。おきゃくがきて 3ぞく はいています。のこっているのは なんぞくですか。 □□□ = □ぞく	
7	あめを 5こ もっていました。おにいさんから 4こ もらいました。ぜんぶで いくつになりましたか。 □□□ = □こ	
8	ひろこさんは、ボール(ぼおる)を 8こ もっていました。よしおくんに 2こ あげました。のこりは なんこですか。 □□□ = □こ	

13級

文 12級－24回　**文章題**　なまえ　　点

い　も　ほ　り

わたしたち 1ねんせいは バス(ばす)で いもほりに いきました。

わたしたち 1ぱんは 6人(にん)ですが、1人(ひとり)が かぜで やすみました。1ぱんは、はたけの 一(いち)ばん ひだりから ほりはじめました。

「あった、あった。」みんな 大(おお)よろこびでした。わたしたちのはんで、一(いち)ばん おおい人(ひと)は 8本(ぼん)、一(いち)ばん すくない人(ひと)は 4本(ほん)でした。

ほった いもは いっしょにして、5本(ほん)ずつ わけてもらいました。やすんだ 友(とも)だちのぶんは わたしが とどけることに なりました。

かえりは バス(ばす)の中(なか)で、クイズ(くいず)をしたり、うたを うたったりしました。

12級

もんだい　(よく よんで こたえましょう。)

1	1ぱんは、どこから ほりましたか。	(　　)	
2	いもほりをした 1ぱんの 人(にん)ずうは	□□□ = □人	3つの答えをあわせると19
3	一(いち)ばん おおくほった人(ひと)と 一(いち)ばん すくない人(ひと)の ちがいは	□□□ = □本	
4	わたしのぶんと やすんだ ともだちのぶんを あわせると	□□□ = □本	
5	かえりの バス(ばす)の中(なか)で したことは	(　　) や (　　)	

２年生３分冊

ぶんしょうだい
文章題 10級
新村式 進級方式
B−1
なまえ
注意
1．計算力が未熟だとなかなか解けません。
2．進級は巻末のテストで平均85点以上。
3．不合格の場合、同じ問題集を繰り返す。
4．60点以下が続く場合、降級します。
5．数詞まちがい…5点減
6．2題で1問、その片方は5～10点減
7．5×10が10×5の場合減点
8．答欄が合っていても式が違う場合減点
13級 12級 11級 10級 9級
テスト1 テスト2 テスト3 テスト4 合・否
学習経過
日本基礎学習協会 指定教材
新村教育研究所 編
ぶんしょうだい
文章題 9級
新村式 進級方式
B−2
なまえ
注意
1．計算力が未熟だとなかなか解けません。
2．進級は巻末のテストで平均85点以上。
3．不合格の場合、同じ問題集を繰り返す。
4．60点以下が続く場合、降級します。
5．数詞まちがい…5点減
6．2題で1問、その片方は5～10点減
7．5×10が10×5の場合減点
8．答欄が合っていても式が違う場合減点
11級 10級 9級 8級
テスト1 テスト2 テスト3 テスト4 合・否
日本基礎学習協会 指定教材
新村教育研究所 編
ぶんしょうだい
文章題 8級
新村式 進級方式
B−3
なまえ
10級 9級 8級 準7級
5．数詞まちがい…5点減
6．2題で1問、その片方は5～10点減
7．5×10が10×5の場合減点
8．答欄が合っていても式が違う場合減点
テスト1 テスト2 テスト3 テスト4 合・否
日本基礎学習協会 指定教材
新村教育研究所 編

文 10級－1回 文章題

なまえ ＿＿＿＿＿＿＿＿ 点

1 10

かずの大きいじゅんに ばんごうを入れる。

13 ( ) 95 ( ) 49 ( ) 52 ( ) 100 (/)

2 15

6 m の 白いテープと、10 m の 赤いテープがあります。合わせて 何 m ありますか。

しき ＿＿＿＿＿＿ こたえ m

3 15

10円玉 1こ、50円玉 2こ、100円玉 1こで 何円ですか。

図をかく (10) (50) (100)

こたえ

4 15

トランプが 14枚 あります。なげて、おもてに なったのは 9枚でした。うらに なったのは 何枚ですか。

しき ＿＿＿＿＿＿ こたえ

5 15

5人のりの 車が 4だい あります。何人 のれますか。

図をかく 5

5 × 4
4 × 5 ?

□ × □ こたえ

6 15

1ふくろ 20枚の おり紙と、あと 2枚 あります。ぜんぶで 何枚ですか。

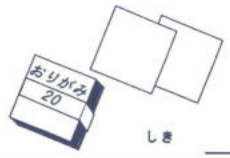

しき ＿＿＿＿＿＿ ＝ □ 枚

7 15

せんこうはなびを、2本ずつ 5人の子に くばるには、ぜんぶで 何本 いりますか。

しき □ × □ ＝ □ 本

ことばパズル

□ に字を入れ、ことばをつくる。

こん虫

	こ	
と		ぽ
	ぶ	

	う	
あ		ひ
	ぎ	

	む	
き		や
	ば	

10級

(5分) 文10－1

文 9級－テスト1 文章題

なまえ ＿＿＿＿＿＿＿＿ 点

1 10

900 より 50大きい かずは □ 900 より 50小さい かずは □

2 15

次のしきの たしかめをしなさい。

9 + 3 = 12

＝ ＿＿＿＿

または ＿＿＿＿ ＝

3 15

えきから 学校まで歩きました。いさむ君は 14分、かずみ君は 17分かかりました。どちらが どれだけ おそいでしょう。

しき ＿＿＿＿＿＿ □ 君が □ 分おそい

4 15

おり紙を 11枚 もっていましたが、姉さんから 9枚 もらいました。その中から 5枚 つかいました。何枚のこっていますか。

しき ＿＿＿＿＿＿ こたえ

5 15

40円の 半分は いくらですか。 (10)(10)(10)(10) □

6 15

そうじ当番の はんは、5人のはんが 7はんあります。みんなで 何人いますか。

しき ＿＿＿＿＿＿ こたえ

7 15



左 右

① 上から 1だんめで 左から 3番めは □

② 下から 2だんめで 右から 1番めは □

③ 上から 3だんめで 右から 4番めは □

9級

文 9級－テスト1 (5分)

３年生４分冊

文章題 いろいろ算 準7級 新村式 進級方式 C−1
なまえ
注意
日本基礎学習協会 指定教材 新村教育研究所 編
文章題 いろいろ算 7級 新村式 進級方式 改訂版 C-2
なまえ
注意
日本基礎学習協会 指定教材 新村教育研究所 編
文章題 いろいろ算 準6級 新村式 進級方式 C-3
なまえ
日本基礎学習協会 指定教材 新村教育研究所 編
文章題 いろいろ算 6級 新村式 進級方式 C−4
なまえ
注意
日本基礎学習協会 指定教材 新村教育研究所 編

7級−15回　文章題 いろいろ算　氏名　・　点

1 (5)　50kg＝□g

2 (5)　くふうして計算　27＋16＋34　→27＋　＝

3 (5)

何本ですか。　小数で

4 (5)

$\frac{2}{7}\times 3=$

5 (5)

1−0.5＝

6 (5)　41m 85cm−30cm＝

7 (5)　$\frac{2}{9}+\frac{3}{9}+\square=\frac{8}{9}$

8 (5)　9時間×3＝　時間で（　日と　時間）

9 (10)　58人の人を20人乗りの マイクロバスで運ぶには、何台いりますか。（　）台

10 (10)

で、700円のふでばこが 何こ 買えて、おつりは いくらでしょう。
※暗算で　こたえ　こ買えて　おつり

11 (10)　同じ大きさの分数を 見つけましょう。
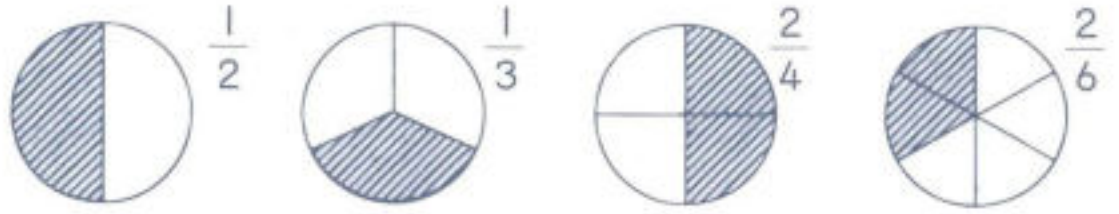
$\frac{1}{2}$ と　$\frac{1}{3}$ と

12 (15)　25円のあめと、30円のあめを 1こずつ買いました。さいふの中には まだ 45円残っています。はじめ いくらあったでしょう。
しき　こたえ

13 (15)　右の問題に、等号（＝）、不等号（＞ ＜）を入れなさい。
30分＋35分 □ 1時間
120秒 □ 2分
10×5 □ 17×3

連想ゲーム
• 雨あがり　七色　きれい　何でしょう
• 池や田んぼ　ゲロゲロ　はねる　何でしょう

7級

6級−1回　文章題 いろいろ算　氏名　・　点

1 (5)　4.7＋3.4＝

2 (5)　暗算　430×5＝

3 (5)　8.5×4＝

4 (5)　8kg 5g＝□g

5 (5)　桁数計算　ア 315×3　イ 315×8　（ア ・ イ）桁

6 (5)
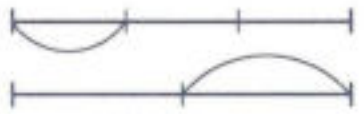
大きさくらべ　$\frac{1}{2}$ □ $\frac{1}{3}$

7 (5)　5000円÷200円＝

8 (5)　×÷が先　9＋6×8＋8＝

9 (5)　30cmの $\frac{1}{6}$ は　こたえ

10 (10)　□は どんな数　ア 2.5□　イ 2.7□　ウ 2.9□　ア ・ イ ・ ウ

11 (15)　れんがを たてに 3こずつ、よこに 4列ならべて、3だんに つみ上げました。れんがは、全部で 何こありますか。

1だん　3だん　こたえ

12 (15)　30円と 40円の 消しゴムが全部で 13こあります。そのうち、30円のが 5こあります。どちらが何こ多いでしょう。

全部で	円	円
こ	こ	こ

←あいた□に、ねだんと 数を入れる。

・　こたえ　円のほうが　こ多い

13 (15)　つると さるがいます。それぞれ 何びきで、手と足の数は 全部で 何本ですか。1・2・3のじゅんに 手と足を なぞる。
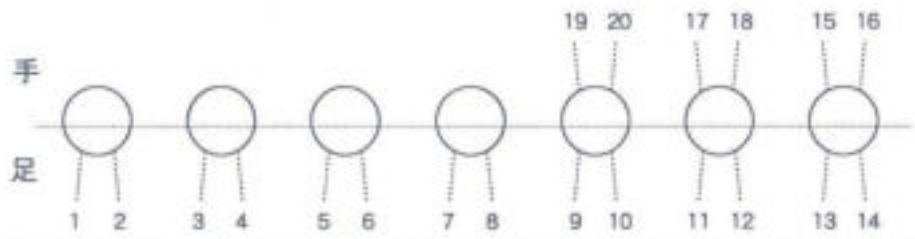

足は	本
手は	本
合わせて	本

つる	ひき
さる	ひき
合わせて	ひき

連想ゲーム
• たいへん強い　アフリカ　おすには たてがみ　何でしょう
• めだま　つの　うずまき　おそい　何でしょう

6級

4年生4分冊

文章題 いろいろ算 準5級 D-1
新村式 進級方式
なまえ
注意
1．計算力が未熟だとなかなか解けません。
2．進級は巻末のテストで平均80点以上。
3．不合格の場合、同じ問題集を繰り返す。
4．60点以下が続く場合、降級します。
5．数詞まちがい…5点減
6．2題で1問、その片方は5～10点減
7．5×10が10×5の場合減点
8．答欄が合っていても式が違う場合減点
7級 準6級 6級 準5級 5級
テスト1 テスト2 テスト3 テスト4 合・否
日本基礎学習協会 指定教材 新村教育研究所 編
文章題 いろいろ算 5級 D-2
新村式 進級方式
なまえ
注意
日本基礎学習協会 指定教材 新村教育研究所 編
文章題 いろいろ算 準4級 D-3
新村式 進級方式
なまえ
日本基礎学習協会 指定教材 新村教育研究所 編
文章題 いろいろ算 4級 D-4
新村式 進級方式
なまえ
注意
日本基礎学習協会 指定教材 新村教育研究所 編

5級−2回　文章題 いろいろ算

氏名　　　　・　　点

問	問題	配点
1	30をひき□をひく　530 − 34 ＝ ____	5
2	1Lの $\frac{4}{10}$ は(　　)dL	5
3	1mの0.8は(　　)cm	5
4	正三角形の3つの角の和は ____	5
5	=><を　8＋4×2 ____ 6×5−10	5
6	57＋7.4＝ ____	5
7	▨を 分数で ____ ＝ 小数で ____	5
8	暗算　180の $\frac{3}{4}$ は ____	5
9	ノートで　八千二十七から 三千六百二十九 をひくと ____	5
10	809.36は　1を□こと　0.01を□　この2つを合わせた数	10

11　犬小屋を父と兄で作ります。父は全体の $\frac{2}{3}$ をしました。残りを兄がします。兄はいくらすることになりますか。

なぞる　A. ____　（10）

12　直子さんは、700円持っていました。そのうち、500円玉が1枚、100円玉が1枚で、あとは全部10円玉です。10円玉は何枚ですか。

なぞる　A. ____　（15）

13　ソフトボール投げきろく

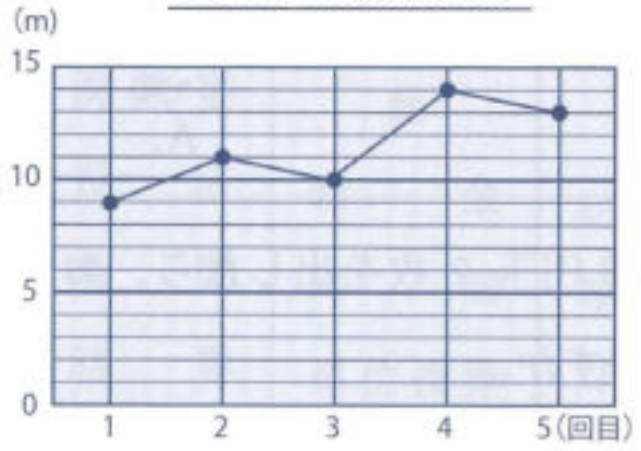

折れ線グラフを見て、答えなさい。

ア．1目もりは何m ですか。 ____

イ．10m 投げたのは 何回目 ____

ウ．2回目と 4回目の ちがい ____

エ．1番 遠くへ投げたのは ____ 回目

（20）

計算パズル

(　)の中の数字を3回ずつ使って、たても横も□になるようにする。

(1・2・3)＝6

3	2	1
1		

(2・3・4)＝9

		3
	3	
3		

5級−3回　文章題 いろいろ算

氏名　　　　・　　点

問	問題	配点
1	□はどんな数　1・4・10・19・□	5
2	暗算　20×(　　)＝900	5
3	三百五十の $\frac{9}{10}$ は ____	5
4	正方形を2つに分けた。アは何度か。 ____	5
5	億の位（一億〜千億）は位が(　)つ	5
6	$\frac{1}{10}$ kgは(　　)g	5
7	メモかノートで　六百七十三の 二十五倍は ____	5
8	0.1×100＝ ____	5
9	8mmをcmに直すと 何cmですか。小数で ____	5
10	 ▨は 分数で ____ ＝ 小数で ____ ＝ ____ (秒)	10

11　Aの本の重さはBの重さの3倍あります。Bの重さは20gです。Aの重さは何gですか。

____　____　（15）

12　バケツに水が5L入っていましたが、その中から1.5Lと8dLの水をくみ出しました。今、残っているのは何Lですか。

(　)を使って ____　____　（15）

13　12人並んでいます。Aさんは前から9番目で、Bさんは後ろから8番目です。AさんからBさんまでは何人いますか。

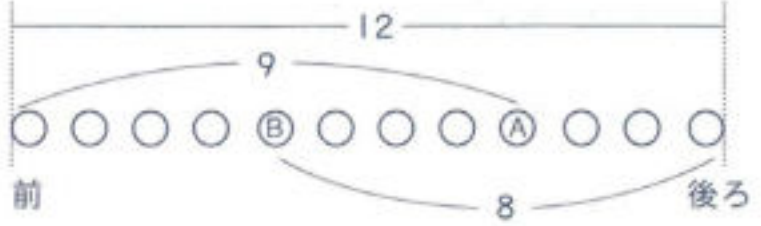

A＋B ____

重なり ____　____　（15）

ことばパズル

□に字を入れ、ことばを作る。

小さい魚

め		ね
か	ま	

ようちえんの

す		ば
か	た	な

4級−24回　文章題 いろいろ算　氏名 ________ • ________ 点

1 (5)	10分÷4＝　2分と（　　）秒	2 (5)	工夫して $3\frac{5}{9}+1\frac{3}{9}+\frac{6}{9}=$ ____
3 (5)	0.5 kg の $\frac{1}{2}$ は（　　）kg	4 (5)	$\frac{7}{12}$ 時間は ____ ＝（　　）分
5 (5)	• を四捨五入して計算 3000 ÷ 57̇3 ____	6 (5)	1と $\frac{1}{5}$ は　小数で ____
7 (5)	$13-3\frac{3}{4}=$ ____	8 (5)	50 m のひもの 0.2 は何 m ですか。 ____

9 (10)

3人ずつ乗ったボート 5そうと、2人ずつ乗ったボートが 4そうあります。そのうち、女は 3人乗りが 3そうです。男女どちらが何人少ないですか。

※ ⑧・②を書いて考える

女 ________

男 ________ • ________ ○ が □ 人少ない

10 (15)

母と 姉と 妹の年れいを合わせると 45才です。母の年は 姉の 3倍で、妹の 6倍です。妹の年れいは何才ですか。　※ 妹を○として考える

（ ）を使いわり算で ________ ________

11 (15)

Aのような土地（とち）があります。面積を変えないで長方形の土地にします。

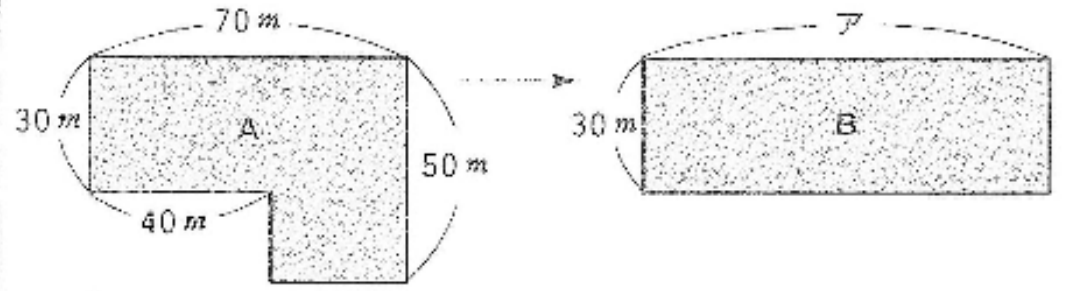

たてを 30 m にすると アは何 m になりますか。

____

A ________　ア ________

12 (20)

	A(本)	B(本)	代金(円)
①			
②			

AとBのえんぴつがあります。A 5本と、B 8本は 800円で、A 5本と、B 6本は 700円です。それぞれ 1本のねだんはいくらですか。

____

② で ________

A	
B	

（7分）　㊫ 4—24

4級

4級−1回　文章題 いろいろ算　氏名 ________ • ________ 点

1 (5)	$5\frac{2}{9}+2\frac{2}{9}=$ ____	2 (5)	• を四捨五入して計算 1000 ÷ 19̇ ____	3 (5)	$6\frac{5}{6}-\frac{4}{6}=$ ____

4 (5)	0.991 を小数第 1位で四捨五入（ししゃごにゅう） ____	5 (5)	0.49 ÷ 9 ＝ 0.05　あまり ____
6 (5)	七万の $\frac{13}{14}$ は　ふつうの数字で ____	7 (5)	4 dL ÷ 8 ＝ □ dL　小数で（　　）dL
8 (5)	$5\frac{4}{5}-\frac{1}{5}=$ ____	9 (5)	1 a（アール）は　家をたてる土地（とち）や田や畑などの広さ  ＝ ____ a

10 (10)

100 m のトラックに、同じ間かくで しるしがついています。しるしは全部で 20 こです。1つの間かくは 何 m ですか。　（　　）m

11 (10)



24 このタイルで 正方形を作ります。1つの辺（へん）のタイルの数は何こですか。

________　（こたえ）A. ________

12 (15)

画用紙 2枚（まい）と、折（お）り紙 1枚で 25円です。同じ画用紙 2枚と、折り紙 3枚で 35円です。画用紙 1枚のねだんはいくらですか。

________ • ________　（こたえ）A. ________

13 (20)

下の図で、アの直線は 2直角です。あとは 30°ずつふやしていきました。それぞれ何度ですか。

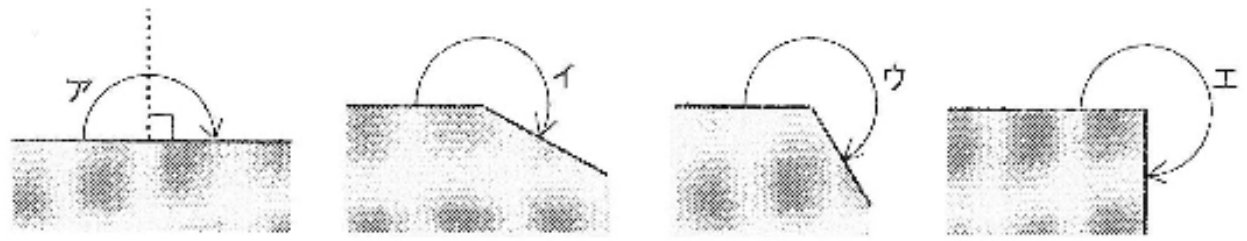

ア	
イ	
ウ	
エ	

連想ゲーム

何を思い出しますか。

3…ふつう
4…ゆうしゅう
5～天　才

水	

（7分）　㊫ 4—1

4級

4-2-4　かきかた・漢字

評価
わは かきかた（はとはとわ）
年　なまえ
2かい（こ）なぞる。
うすいじは1かいなぞる。
★ソフトしたじきをしく。2Bか かきかたえんぴつでかく。
（わ）
はり
はと
わし
おおきな
ひらがな
かきかたノート1
新村教育研究所 編
なまえ
年

か　年　なまえ　評価

⊙ちゅうい…ソフトしたじきをしく。マスからはみ出すほど 大きめに、（ミ）は3回、（こ）は2回なぞる。

カ	キ	ク	ケ	コ
か	き	く	け	こ
か	き	く	け	こ

タイム7～8分

か　2Bか かきかた えんぴつで、1字ごとに えんぴつを クルリと まわして

さ　年　なまえ　評価

⊙ちゅうい…ソフトしたじき

サ	シ	ス	セ	ソ
さ	し	す	せ	そ
さ				

タイム7～8分

さ　2Bか かきかた えんぴつで、

幼児から大人まで　楽しく学べる　かきかた

ひらがな

かきかたノート2



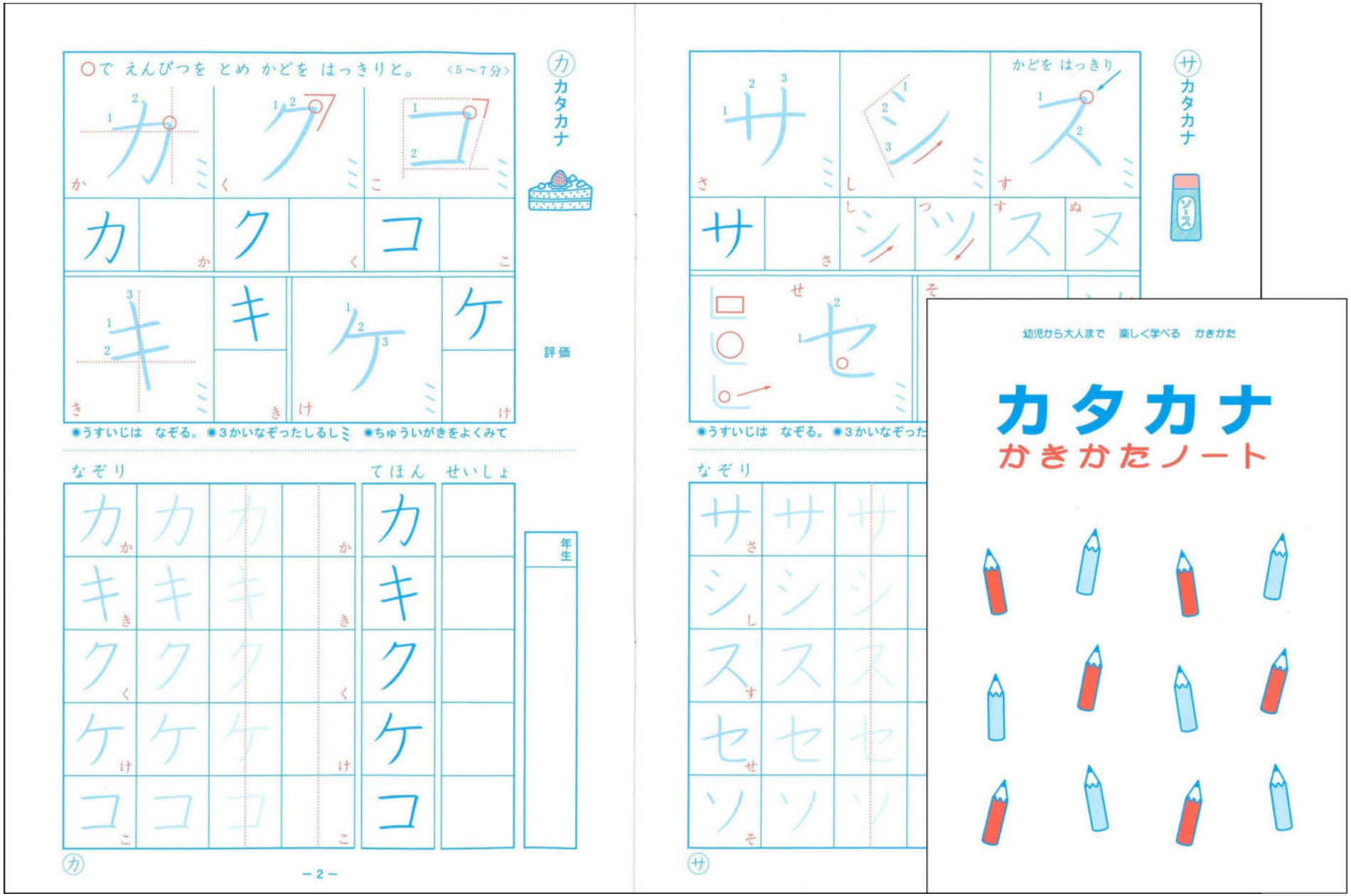
○で えんぴつを とめ かどを はっきりと。 〈5～7分〉
カタカナ
評価
●うすいじは なぞる。 ●3かいなぞったしるしミ ●ちゅういがきをよくみて
なぞり
てほん せいしょ
年生
かどを はっきり
カタカナ
ソース
●うすいじは なぞる。 ●3かいなぞった
なぞり
幼児から大人まで 楽しく学べる かきかた
カタカナ
かきかたノート

漢字練習帳：１年生～３年生　１２分冊

ちからだめし

①九（　）つのつぎは十（とお）

②千（　）円さつ　③七（　）つのおいわい

④かきが五（　）っ　⑤百（　）円だま

なんとよみますか。

こたえは1・2ページ

□にかんじをかこう。

①□月□日　②くり□こ

③□ばづる　④□くみの人

⑤□人ばやし　⑥よるの□時

さくらいっろー

かんじをいれて はしをつくろう。

九　四　六　七



かずをかぞえて あうかぎで あけてあげよう。



れんしゅうしよう。

五 いつ・ご	百 ひゃく	千 せん

かんじれんしゅう

3かいなぞる　うすいじは1かいなぞる。□にはかんじ、○にはひらがなをいれる。

① みず 水	② かわ 川	③ やま 山	④ ひと 人
□すい□どうの□みず□をのむ。	□かわ□でおよぐ。長い□かわ	□やま□へのぼる。ふじ□さん	□ひと□の声・六□にん□かぞく
水	川	山	人
水	川	山	人
水	川	山	人

ちからだめし

（　）にはよみがな、□にはかんじをかく。

① 五才（　）のおいわい　② 今（　）から出かける。

③ 十分（　）待った。　④ 半分（　）に分ける。

⑤ まるい顔（　）　⑥ 頭（　）がいたい

⑦ 三□70年上　⑧ らい年六□70になる。

⑨ □9から行くよ。　⑩ 答えが□128かる。

⑪ 自□128の名前　⑫ □7の上

⑬ 明るい□31　⑭ 先□7に立つ。

6画で書けるかんじの山をとおって金の谷までいこう。

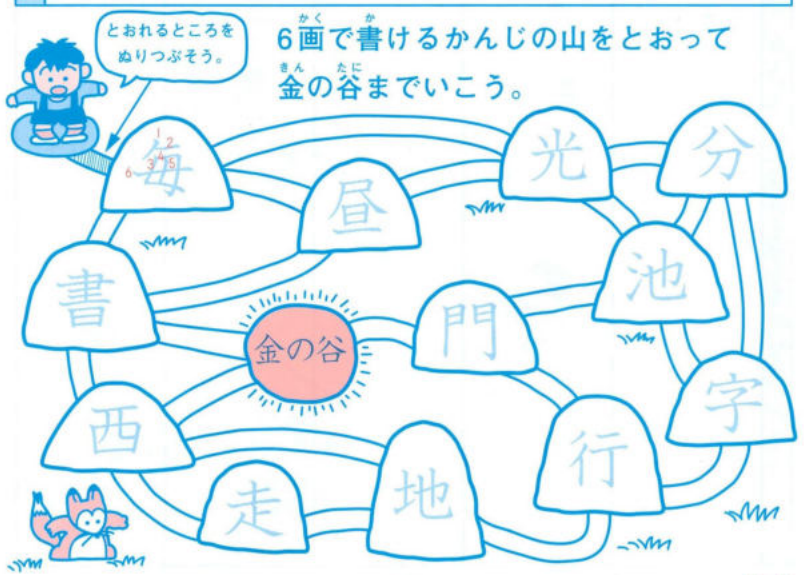

ちからだめし

一年生で習った漢字　赤（あか）　金（きん）　青（あお）　花（はな）　犬（いぬ）　足（あし）　手（て）

花だんを□94る。八時十□128

なの花は□43色い。　□132日寒い。

□18の水はしおからい。　□59だわら

50メートルを□113る。

□127った犬　□9にも雪がふりそうだ。

火□141日　□6おきて

□31をあらう。

□29う。　□30き取りテスト

下からかんじをさがして□に書く。みつけたら／のしるしをつける。

毎	書	朝	顔	黄	分	海	太	今	買	作	米	走	曜

体の部分の漢字

頭　顔　手　足　首　毛

力だめし

（　）にはよみがな、□にはかんじをかく。

① 水の（　）流れ

② へやを（　）温める。

③ 夜空（よぞら）の（　）流星（せい）

④ 太い木の（　）根

⑤ 水（すい）（　）泳　教室で（　）泳ぎ方を習（なら）う。

⑥（　）遊園地（えんち）で（　）遊ぶ。

⑦ 日本の（　）酒

⑧ あせを□（なが）す。

⑨ □（りゅう）行の洋服（ようふく）

⑩ 木の□（ね）元（もと）

⑪ 平（ひら）□（およ）ぎが上手（じょうず）

⑫ 友だちと□（あそ）ぶ。

⑬ □（ゆう）らん船（せん）

⑭ お□（さけ）を□（あたた）める。

⑮ □（おん）度計（どけい）

なかまの漢字　右から さがして 漢字を つくる。

なぞる

にんべん　体　亻　亻

さんずい　氵　氵　氵

きへん　木　木　木　木

□に合う亻（にんべん）、氵（さんずい）、木（きへん）を入れ、（　）にふりがなを書く。

車に□主意（い）する。（　）

町に□主む。（　）

□主のきず（　）

かん字れんしゅう

大きい かん字は 2回なぞる。読みがなは 1回なぞる。○には ひらがなを 入れる。

① さか　坂

急（きゅう）○□（さか）道（みち）・上（のぼ）○□（さか）・□（さか）の多○町

② ミ・あじ　あじわう　味

強○□（み）方・言葉（ことば）の意（い）□（み）・料理（りょうり）○□（あじ）

③ メイ・いのち　命

□（いのち）○大切（たいせつ）に・きゅう□（めい）ボート

④ ロ・じ　路

広い道（どう）□（ろ）○できる。せま○□（ろ）地（じ）

⑤ ジョウ・のる　乗

□（じょう）用車（ようしゃ）○□（の）る。□（じょう）馬（ば）

⑥ ダイ　題

宿（しゅく）□（だい）○多い。文章（しょう）□（だい）○とく。

坂　味　命　路　乗　題

4-2-5．図形教材（パズル、積み木２種）

図形パズル A－2

できたしるし

A-2

さんかく

ましかく

はんまる

やま

図形パズル E－7

できたしるし

ショベルカー

あまり

図形パズル E－8

できたしるし

汽船（きせん）

あまり



1.2.3 つみき 初級−1

できたしるし

できあがり

4だんずつ かさねる

1

3

2

3

初−1

1.2.3 つみき 初級−2

できたしるし

はじめは
ならべてみよう

2つとも
たてて みよう

初−2

1.2.3 つみき 上級−18・19・20

できたしるし

上−18

カンガルー B
(36こ)

上−19

アーチ
(24こ)

上−20

きょうりゅう (36こ)

できたしるし

鳥 (33こ)

ここ(4×4)を先に作り後でのせる。

のこり 3こ

足2本のうち1本は「2こ+1こ」で

5．運用

5-1．初めての学習

- 入会テスト（チェックテスト）の実施
- 体験学習用のプリント（ダウンロード）

- 最初の２～３回は、簡単な段階から
- １年生でも年長（入門）レベルから

5-2．通常学習の流れ

- 短時間区切り学習（5～20分ごとに区切る）
- 集中させる仕組み（計時）
- 多角的アプローチ

　　文章題、計算、漢字、書き方、図形

5-3．通常学習の内容

- 自学自習を中心に組み立てる

  通常の学習の流れ（約60分）
  - 見直し（10分）　前回学習の間違いを直す
  - 練習帳（15分）
  - 計算練習帳（5分）
  - 文章題（5分）
  - 漢字練習帳（5分）
  - つみきORパズル（10分）

５-４．教材の流れ

- 受け渡しの自動化

  指導者との受け渡しをできるだけ省く

  「これから学習する教材」と

  「終了した教材」　を分けて管理

「個人別フォルダー」と「目的別ファイリング」

はやし さくや
ますだ ささな
かわかみ あおば
すずき さらら
こしいし のぞみ
なかむら にな

本日の学習教材
見直し教材
宿題

5-5．採点のタイミング

- いつ採点するか
  - 基本（生徒が４人以上いるとき）
    - 学習が終了してから採点
    - 授業中採点するのは見直し分だけ
    - 授業中は子どもの学習を見る
  - 例外（生徒が１～３人）
    - 採点しながら指導

5-6．教材の管理

- 発注単位、当初は学期別セットが便利
- 追加は個人別に教材補充をする

６．教材の発注

- 注文はFAX・電話・メールで
- 午後３時までに注文頂けると当日発送
- 営業時間は平日10時～17時
- お支払いは到着後、郵便振替・銀行振込で
  （代引きも可）

株式会社エジソンクラブ
〒175-0083東京都板橋区徳丸５－５－１６
TEL:03-3933-6000　FAX:03-3933-6060
URL : ejisonclub.jp　mail:mail1@ejisonclub.co.jp

ご清聴ありがとうございました

- 新規会員登録は特別プランをご用意しました。
  通常~~３０，０００~~円（約50,000分の教材含む）
  ↓
  ２０，０００円 **本日限り**
- **無料の導入サポート３回**
  オンラインorリアル（交通費実費）

・お申し込みは、電話：03-3933-6000
FAX：03-3933-6060でどうぞ。

※初回のみ登録費がかかります。月々の固定費等一切不要です。
必要な教材を必要な時にご購入下さい。

本日の資料はこちらから

https://ejisonclub.jp/reqdisabled/